测评编号_____ 姓名_____ 班级_____ 学校_____

内不要答题

弥封线

2016～2017学年第二学期八年级阶段性测评

历史试卷

(考试时间:下午4:30——6:00)

说明:本试卷为闭卷笔答,做题时间90分钟,满分100分。

题　号	一	二	三	四	总　分
得　分					

一、单项选择题(本大题含15个小题,每小题2分,共30分)

题号	1	2	3	4	5	6	7	8	9	10	11	12	13	14	15
答案															

1.列宁说:“爱国主义就是千百年来形成的对自己祖国最崇敬的心情”。升国旗、唱国歌是爱国主义教育的重要内容,1949年召开的中国人民政治协商会议决定中华人民共和国的代国歌是

A.《马赛曲》　　B.《黄河大合唱》　　C.《毕业歌》　　D.《义勇军进行曲》

2.1949年10月3日的英国《泰晤士报》刊登了来自香港记者的北京报道:“这是亚洲一个划时代的历史时刻,虽然不是所有的中国都在共产党的手中,但毫无疑问,无论好坏,这是拥有近5亿人民、目前世界上最大的单一同质种族群体的政府。”该报道反映的史实包含

①中华人民共和国中央人民政府成立　②当时祖国大陆还没有全部解放　③推翻南京国民政府的统治,彻底消灭了剥削制度　④中国共产党领导的新民主主义革命取得了胜利

A.①②③　　B.②③④　　C.①②④　　D.①③④

3.右图的内容反映了西藏解放的

1951年，西藏获得解放，至此，祖国大陆获得了统一，各族人民实现了大团结。

A.背景和人物　　B.人物和方式

C.方式和背景　　D.时间和意义

4.不同的时代总有一些英雄人物被赋予了时代精神的称谓。在20世纪50年代初,中国涌现出一批“最可爱的人”,他们是

①黄继光　②邱少云　③焦裕禄　④雷锋

A.①②　　B.③④

C.②③　　D.②④

5.对右图反映历史事件的解读,不正确的是

A.图中方框内应填写的河流名称是鸭绿江

B.朝鲜半岛的军事分界线是“三八线”

C.指挥抗美援朝战争的司令员是朱德

D.美国最终被迫在《朝鲜停战协定》上签字

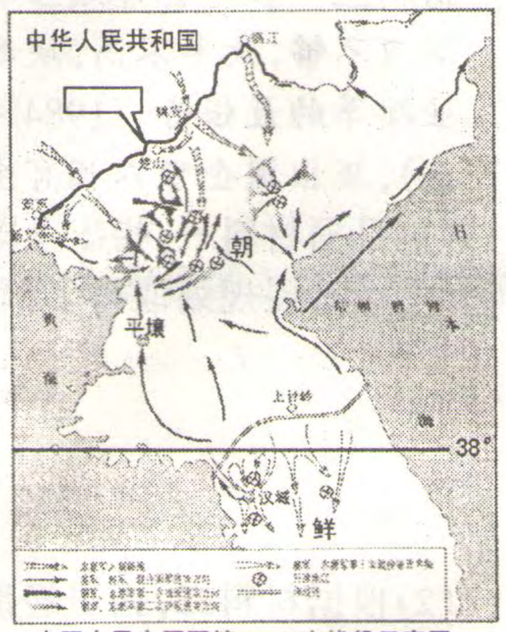

中国人民志愿军第1—3次战役示意图

6. 原广东省监察厅厅长李学先曾在1983年《与青年同志的座谈》一文中指出："土地改革，是落后农业国向工业国快速转变的必由之路"。下列对此说法理解正确的是

A. 农民获得解放，有利于农业生产的发展　　B. 农业迅速发展，为工业化建设准备了条件

C. 消灭了地主阶级，农民成为土地的主人　　D. 建立了土地公有制，向社会主义道路迈进

7. 为了便于记忆历史知识，我们常用简洁的词语来总结某一时期的主要建设成就。"一桥""二铁""三路""四厂"总结的是我国哪一时期的建设成就

A. 1953～1957年　B. 1956～1966年　C. 1966～1976年　D. 1978～2010年

8. 第一届全国人民代表大会期间，全国有1.5亿人参加宪法草案修改讨论，提出118万条修改和补充意见。宪法学者们先后两次召开全国性的学术讨论会，就1954年宪法的历史特点、基本内容及其实践等重要问题作了探讨。这充分说明了第一部宪法

A. 是第一届全国人民代表大会通过的　　B. 表达了党的意志

C. 是在第一个五年计划期间颁布的　　D. 代表了人民的意志

9. 这种政策实现了和平过渡。既发挥了民族资本家有利于国计民生的一面，又消灭了资本主义私有制，创造了从资本主义私有制向社会主义公有制经济过渡的新途径。该政策是

A. 成立生产合作社　B. 调整国民经济　C. 赎买政策　D. 兼并政策

10. "脚踏黄河水倒流，搬来泰山做枕头。决心苦战十五年，(钢产量)赶上英国不发愁。"与这首歌谣相关的历史事件是

A. 三大改造　B. 国有企业改革　C. "大跃进"运动　D. "一五"计划

11. "文化大革命"开始以后，党内老一辈革命家和广大干部群众的抵制和抗争始终没有停止过。下列事件中不属于"抵制和抗争"的是

A. "二月逆流"　　B. 停课停工闹革命

C. 四五运动　　D. 全面整顿各方面工作

12. 通过流行语的变化，我们能够感受时代的变迁。下表所示流行语出现在"文化大革命"时期的有

建国初期	"人大""政协""三大改造"
探索时期	"人民公社""放卫星""原子弹"
"文革"时期	
改革开放时期	"大包干""经济特区""下海"

①"红卫兵"　②"走资派"　③"上山下乡"　④"两个凡是"

A. ①②③　B. ①③④　C. ①②④　D. ②③④

13. 正确分析了当时国内社会的主要矛盾，标志着探索建设社会主义道路良好开端的会议是

A. 中共十五大　B. 中共十三大　C. 中共十二大　D. 中共八大

14. 小明对家乡太原的六味斋企业进行社会调查，活动报告中他写到：解放前六味斋仅店员4人，店面20平方米；1956年发展为前店后厂、自产自销，产品大幅提升；"文革"期间，老店招牌被当做"四旧"横扫；十一届三中全会后，六味斋的老字号得以恢复，规模不断扩大；后实现了股份制改造，企业从此踏上快速发展之路。据此判断，下列有关六味斋发展之路历程的政策，按先后顺序排列正确的是

A. 私营经济—改革开放—公私合营—社会主义市场经济体制
B. 私营经济—公私合营—社会主义市场经济体制—改革开放
C. 私营经济—公私合营—改革开放—社会主义市场经济体制
D. 公私合营—私营经济—社会主义市场经济体制—改革开放

15. 新中国成立以来，我国少数民族地区经济实现跨越式发展，城乡面貌日新月异，人民生活蒸蒸日上。该现象出现的主要原因是

A. 民族隔阂消除、关系融洽　　B. 大杂居、小聚居的分布特点
C. 实行民族区域自治制度　　D. 少数民族地区自然资源丰富

二、简答题（本大题含 2 个小题，16 小题 12 分，17 小题 8 分，共 20 分）

16. 运用示意图呈现历史发展的时序性是历史学科独特的学习方式之一。观察下面两个示意图，回答相关问题。（12 分）

【示意图一】"建国以来土地政策和生产关系变化"示意图

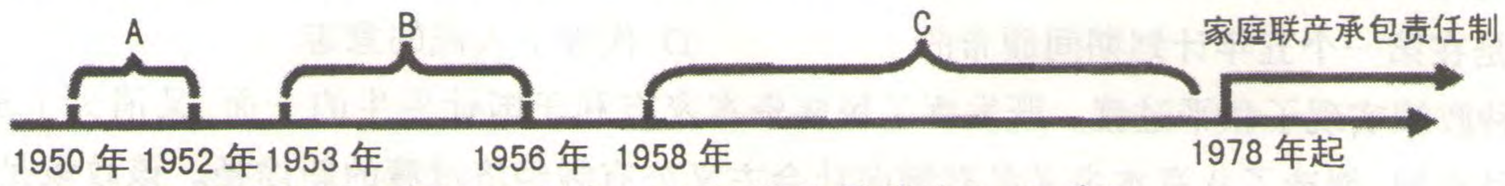

(1) A 阶段农民的土地问题得到根本解决的措施是什么？（2 分）

(2) B 阶段采取的哪一举措实现了农村生产资料私有制向公有制的转变？（2 分）

(3) C 阶段我国农业生产遭到了极大破坏的原因是什么？（2 分）

【示意图二】"我国对外开放格局"示意图

(4) 写出 1980 年开放的四个经济特区名称。（2 分）

(5) 根据右图信息，归纳对外开放格局形成的步骤及特点。（4 分）

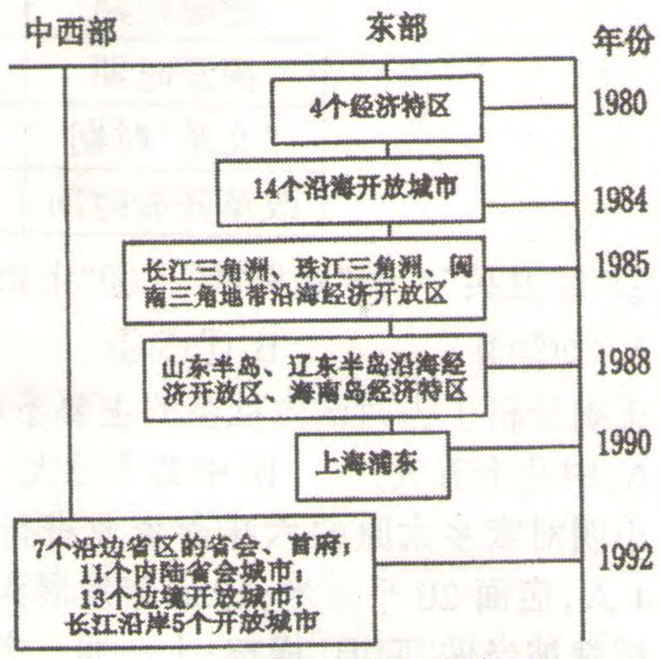

中国对外开放格局示意图

17.“我们唱着东方红，当家作主站起来；我们唱着春天的故事，改革开放富起来。”歌曲唱出了下面图片中历史人物的贡献。据此，回答相关问题。(8分)

图一　开国大典

图二　邓小平南巡讲话

(1)结合图一反映的史实，你如何理解歌词中“当家作主站起来”的含义？(2分)

(2)简述图二邓小平南巡讲话的背景及历史意义。(4分)

(3)对比两位伟人事迹，概括他们对中国革命和建设做出重大贡献的相似之处。(2分)

三、材料解析题(本大题含2个小题，18小题16分，19小题14分，共30分)

18.围绕工业化建设和城市经济体制改革，阅读下列材料，结合所学知识，回答问题。(16分)

材料一　“工业化——这是我国人民百年来梦寐以求的理想，这是我国人民不再受帝国主义欺负不再过穷困生活的基本保证，因为这是全国人民的最高利益。全国人民必须同心同德，为这个最高利益而积极奋斗。”　——1953年1月1日社论

材料二　“用最高的速度来发展我国的社会生产力，实现国家的工业化和农业现代化，是总路线的基本精神……速度是总路线的灵魂。”　——1958年6月21日社论

“人有多大胆，地有多大产”，“地的产是由人的胆决定的。”　——1958年8月3日社论

材料三　在过去计划经济体制下，政府过多的干预着国有企业的生产经营活动，导致企业活力不够，效率不高，缺乏竞争力。因此“松绑”成为了二十世纪80年代中期，中国国有企业改革的最强音。1984年，国务院颁发了《关于进一步扩大国营工业企业自主权的暂行办法》，提出国企可以拥有生产经营计划权等10项自主权。城市国有企业改革迈开了步伐。

(1)根据材料一，指出全国人民的“最高利益”是什么？为此而编制的发展规划是什么？这一发展规划取得了哪些成果？(8分)

(2)根据材料二，指出经济建设中存在的主要问题是什么？(2分)

弥封线内不要答题

(3)根据材料三，指出制约国有企业发展的原因是什么？结合所学知识，说明为国有企业“松绑”的具体举措。(6分)

19. 民主法治是历史发展的趋势，并随着时代进步不断完善。阅读下列材料，结合所学知识，回答问题。(14分)

材料一　在“文化大革命”开始后的8年时间里，全国人大及其常务委员会没有举行过一次会议，地方各级人民代表大会也被迫停止了活动。……各民主党派中央和地方组织的许多负责人受到无情批判和斗争，各级政协相继停止了一切活动。

材料二　1978年5月10日，中央党校内部刊物《理论动态》发表了《实践是检验真理的唯一标准》一文。一石激起千层浪，这篇文章很快引发了一场全国范围的_____的大讨论，对中国社会发展产生了深远影响。

——节选自2016.8.《理论动态》

材料三　经过“文化大革命”人们更加认识到民主和法制的重要性。我国民主与法制建设不断完善。(如下表)

民主法制大事记

1979年	五届人大二次会议通过了《中华人民共和国刑法》。
1980年	中共中央决定撤销“文化大革命”中强加给刘少奇的种种罪名。
1982年	五届人大五次会议通过了经过全面修改的《中华人民共和国宪法》。
1986年	六届人大四次会议通过了《中华人民共和国民法通则》，此后相继通过了《义务教育法》《劳动和社会保障法》《环境保护法》等一系列法律。
1999年	九届人大二次会议通过宪法修正案，把“中华人民共和国实行依法治国，建设社会主义法治国家”写入宪法第五条第一款。

(1)根据材料一，概括“文化大革命”期间，我国有哪些民主政治制度遭到破坏？(4分)

(2)在材料二中的横线处填写适当内容，并说明这次讨论对中国社会发展产生了什么深远影响？(4分)

(3)根据材料三，概括“文革”结束后，党和国家是如何加强民主与法制建设的？加强与完善民主法制建设有何重要意义？(6分)

弥封线内不要答题

四、探究题(本大题共 20 分)

20. 我国的改革开放顺应了时代发展的潮流,是强国之路,是富民之策。下面是张老师运用历史学习的基本方法设计的学案,请你完成。

任务一 【运用年代尺——探究改革历程】(10 分)

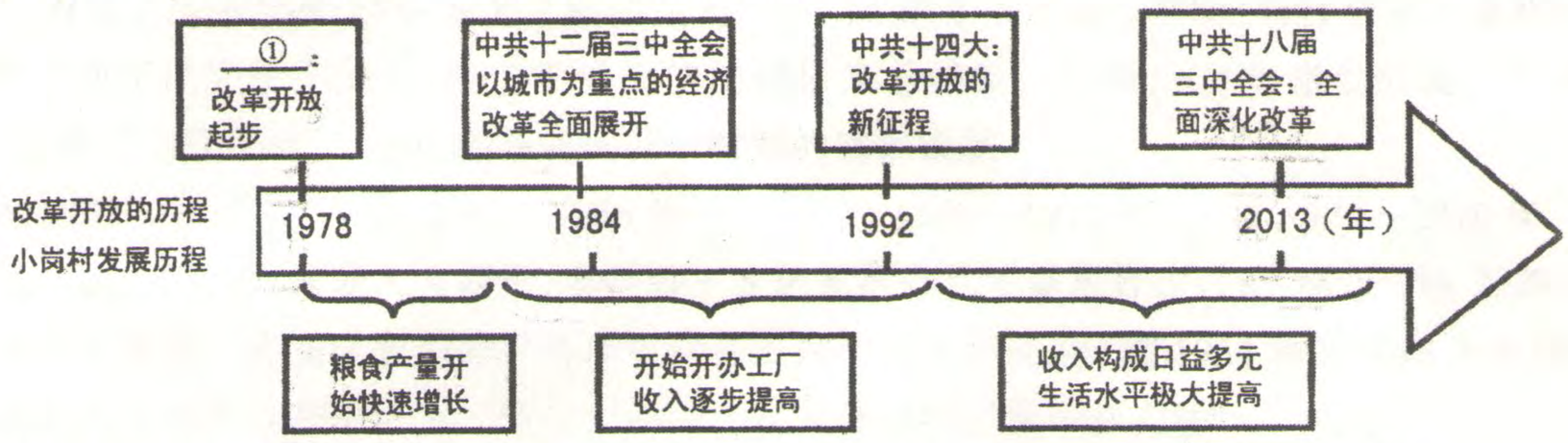

(1)写出年代尺上①处应填写的会议名称,并简述这一会议的重要意义。(4 分)

(2)根据年代尺上的信息,以小岗村的发展变化为例,简述我国改革发展的历程。(6 分)

任务二 【运用表格数据——解读经济现象】(4 分)

(3)观察表一、表二,分别概括我国经济领域发生的重大变化。

表一 中国经济发展状况简表

年份	公有制经济		非公有制经济(%)
	国有经济(%)	集体经济(%)	
1978	56.2	42.9	0.9
1997	41.9	33.9	24.2
2005	31.0	8.0	61.0

表二 中国经济总量排名

年份	在世界排名	在发展中国家排名
1990 年	10	6
2001 年	2	1
2006 年	4	1

表一:

表二:

任务三【结合相关史事——总结历史经验】(4 分)

(4)总结我国三十多年来的改革取得成功的基本经验。

任务四【联系生活实际——建设美丽家乡】(2 分)

(5)随着改革开放的不断深化,家乡的经济也在不断发展,请你为家乡太原的经济建设提一些合理化建议。