测评编号_____ 姓名_____ 班级_____ 学校_____

题 答 要 不 内 线 封 密

2016～2017学年第二学期七年级阶段性测评

地理试卷

(考试时间:上午10:00——11:30)

说明:本试卷为闭卷笔答,答题时间90分钟,满分100分。

题　号	一	二	三	四	总　分
得　分					

一、选择题(下列各题的选项中,只有一项正确,请将正确选项的字母填入下表相应位置。每小题2分,共30分。)

题号	1	2	3	4	5	6	7	8	9	10	11	12	13	14	15
答案															

右图为"东南亚某海峡海上航线示意图"。读图完成1、2题。

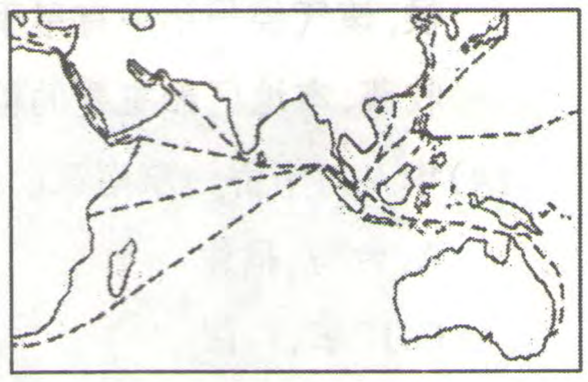

1.位于东南亚的世界著名海峡是

A.土耳其海峡　　B.直布罗陀海峡

C.麦哲伦海峡　　D.马六甲海峡

2.东南亚的地理位置非常重要,因其地处

A.非洲和大洋洲、印度洋和太平洋的"十字路口"

B.亚洲东部,太平洋东岸

C.亚洲和大洋洲、印度洋和太平洋的"十字路口"

D.大洋洲东部,印度洋西岸

3.一般根据体质特征可将人类分为黄、白、黑三大人种,亚洲是

A.白色人种的故乡　　B.黄色人种的故乡

C.黑色人种的故乡　　D.混血人的故乡

4.深居亚欧大陆内部,降水稀少,气温日较差和年较差都大的气候类型是

A.温带海洋性气候　　B.地中海气候

C.温带大陆性气候　　D.温带季风气候

5.亚洲各国经济发展水平不同,多属于发展中国家,唯一的发达国家是

A.日本　　B.韩国　　C.老挝　　D.新加坡

6.西亚一些国家的居民,常把床铺放在屋顶上睡觉,这是因为

A.能欣赏美丽的夜空　　B.当地气候温暖湿润

C.能呼吸新鲜的空气　　D.当地气候炎热少雨

7.阿拉伯人是西亚分布最广泛的居民,他们主要信仰

A.佛教　　B.犹太教　　C.基督教　　D.伊斯兰教

8. 世界上平均海拔最高的大洲是

A. 南美洲　　B. 欧洲

C. 南极洲　　D. 亚洲

9. 下列关于南极地区的叙述，正确的是

A. 以大陆为主体　　B. 全部被冰层所覆盖

C. 以海洋为主体　　D. 全部位于南极圈以北

右图为“撒哈拉以南非洲示意图”。读图完成10、11题。

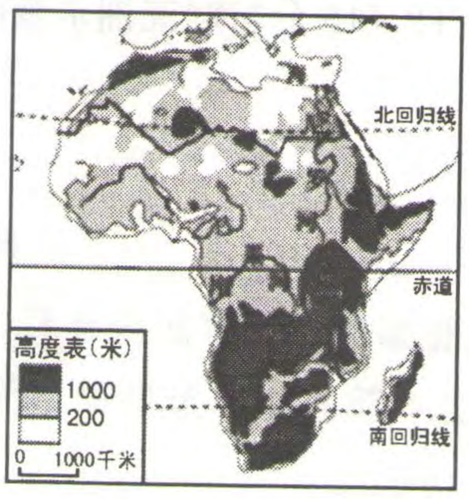

10. 下列关于撒哈拉以南非洲自然环境的叙述，正确的是

A. 介于太平洋和大西洋之间

B. 全部位于南半球，被称为“热带大陆”

C. 地形以高原为主，地势由东南向西北倾斜

D. 世界上海岸线最曲折的地区，多海湾和半岛

11. 撒哈拉以南非洲分布最广的植被类型是

A. 热带雨林　　B. 温带草原

C. 热带草原　　D. 温带森林

12. 欧洲西部河流众多，其中流经国家最多的国际河流是

A. 莱茵河　　B. 多瑙河　　C. 易北河　　D. 罗讷河

13. 欧洲西部温带海洋性气候分布广泛，大面积种植多汁牧草，适宜发展

A. 畜牧业和养殖业　　B. 林业和养殖业

C. 种植业和花卉业　　D. 交通业和加工业

14. 下列关于欧洲西部经济高度发达的叙述，正确的是

A. 工业中心众多，分布均衡　　B. 工业以制造业为主

C. 资本主义经济发展时间短　　D. 农业在经济中所占比重大

15. 油橄榄、葡萄、柑橘是欧洲西部重要的经济作物，适合这些作物生长的气候类型是

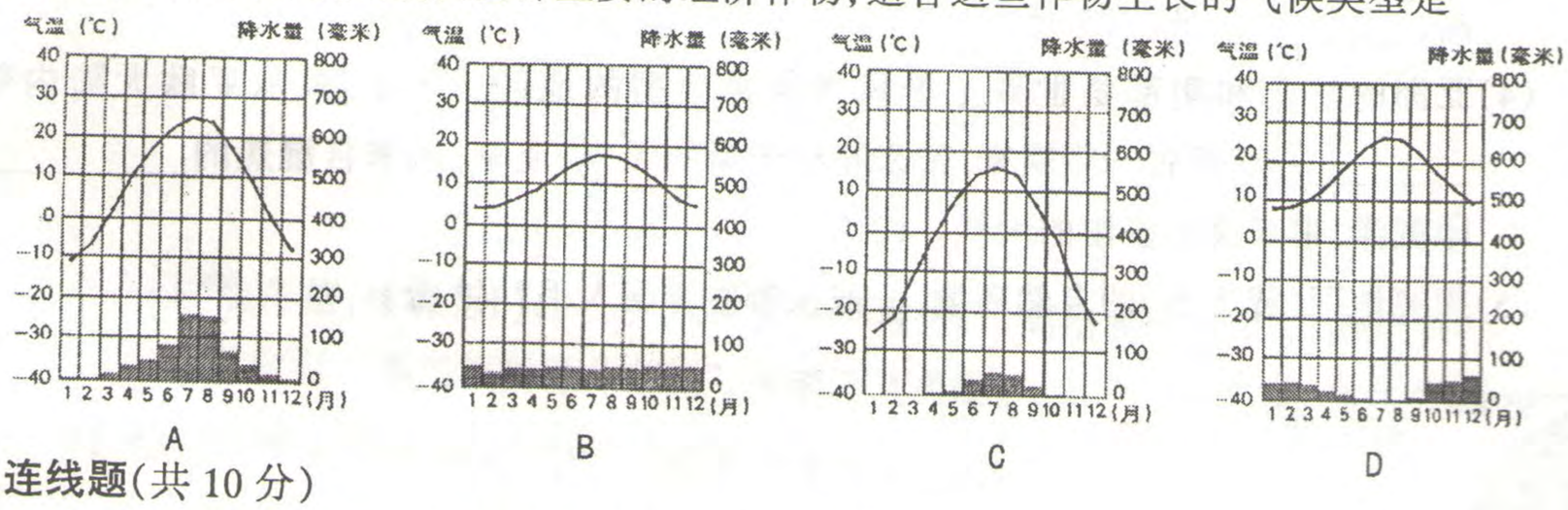

二、连线题（共10分）

16.（5分）将下列地理现象与其所属地区用直线连接起来。

A. 白色长袍是当地人的传统服饰　　①撒哈拉以南非洲

B. 成群的角马、羚羊往水草茂盛的地方迁徙　　②西亚

C. 曲折幽深的挪威峡湾景色宜人　　③极地地区

D. 巨厚的冰层覆盖在大地上、漂浮在洋面上　　④东南亚

E. 世界上橡胶、油棕等热带经济作物的最大产区　　⑤欧洲西部

17.(5 分)将下列旅游景点与其所属国家用直线连接起来。

A.艾菲尔铁塔	①意大利
B.帕台农神庙	②印度尼西亚
C.仰光佛塔	③法国
D.古斗兽场	④希腊
E.婆罗浮屠	⑤缅甸

三、读图分析题(共 45 分)

18.(15 分)读"亚洲示意图",完成下列各题。

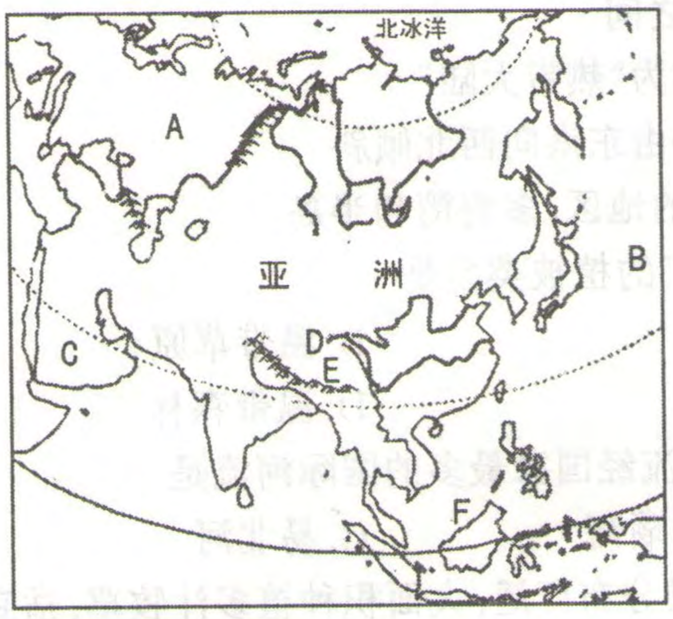

(1)在图中用 2B 铅笔或碳素笔描出赤道。(1 分)

(2)写出图中字母所代表的地理事物的名称。(6 分)

大洲:A _____ 大洋:B _____ 半岛:C _____

高原:D _____ 山脉:E _____ 群岛:F _____

(3)亚洲河流众多,大多发源于中部且呈_____状分布,说明亚洲的地势 _____高,_____低。(3 分)

(4)亚洲的东部和南部是世界上季风气候最典型的地区。冬季,风从亚欧大陆内部的_____和蒙古一带吹来,带来寒冷干燥的天气;夏季,风来自湿热的_____和印度洋,带来高温多雨的天气。(2 分)

(5)探究地区(或大洲)的自然环境,一般从哪些方面入手?(3 分)

19.(15 分)读“中南半岛地形、河流与城市分布示意图”,完成下列各题。

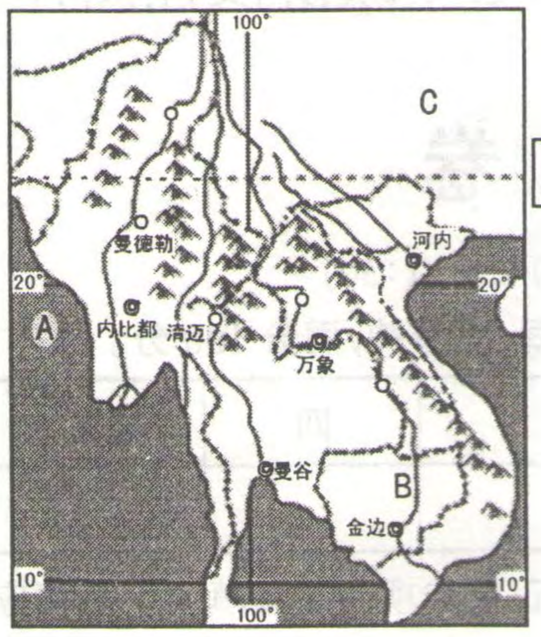

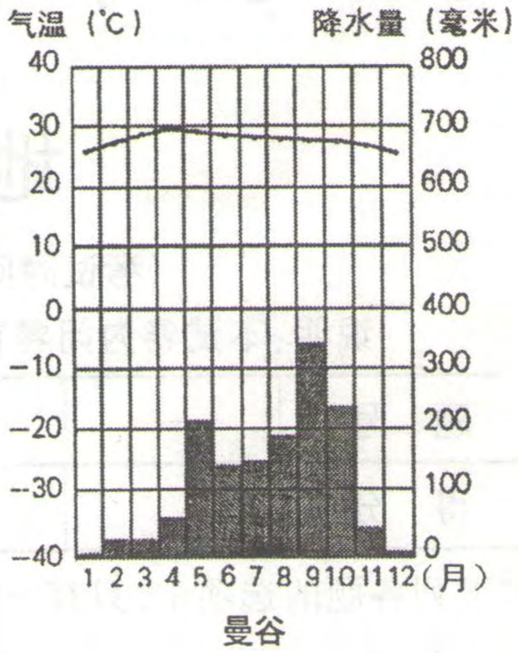

(1)在图右侧的方格内标出重要纬线的名称。(1 分)

(2)写出图中字母所代表的地理事物的名称。(3 分)

海湾:A _____ 河流:B _____ 国家:C _____

(3)东南亚地处_____带(温度带),中南半岛大部分地区为右图所示的_____气候,该气候一年中有旱季和雨季之分,农作物一般在_____季播种,_____季收获,本地区最主要的粮食作物是_____。(5 分)

(4)华人和华侨为东南亚的经济发展做出了巨大贡献,他们主要来自我国的(　　)(2 分)

A.台湾、福建　　B.广东、福建

C.广东、广西　　D.台湾、河南

(5)描述中南半岛的地形特征。(2 分)

(6)沿河设城是中南半岛城市分布的普遍规律,请说明河流对城市分布的影响。(2 分)

密 封 线 内 不 要 答 题

弥封线内不要答题

20.(15 分)读“两极地区示意图”,完成下列各题。

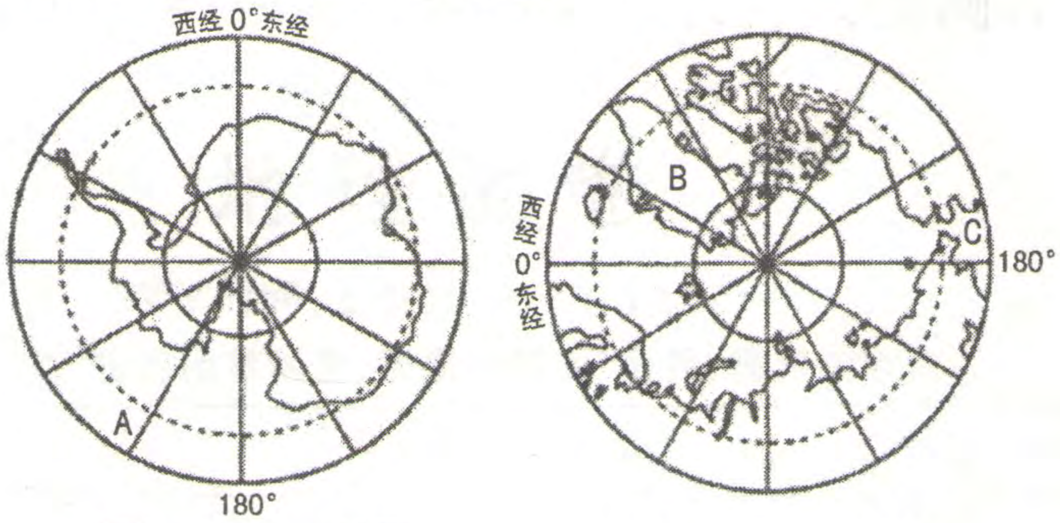

甲:_____地区　　乙:_____地区

(1)在图下方横线上填出地区的名称。(2 分)

(2)写出图中字母所代表的地理事物的名称。(3 分)

大洋:A _____　　岛屿:B _____　　海峡:C _____

(3)南极大陆大部分地区的年平均降水量仅 55 毫米,被称为地球上的“_____”,南极大陆的主要气候特征是_____、_____和_____。(4 分)

(4)我国在北极地区建立的第一个科学考察站是(　　)(2 分)

A.长城站　　B.中山站　　C.昆仑站　　D.黄河站

(5)下列图片中的动物被称为“冰上霸王”的是(　　)(2 分)



A　　B　　C　　D

(6)赴南极地区开展科考活动的最佳时间是每年 11 月至次年 3 月,简析其主要原因。(2 分)

四、材料分析题(共 15 分)

21.(15 分)阅读图文资料,完成下列各题。

材料一　“西亚地区示意图”

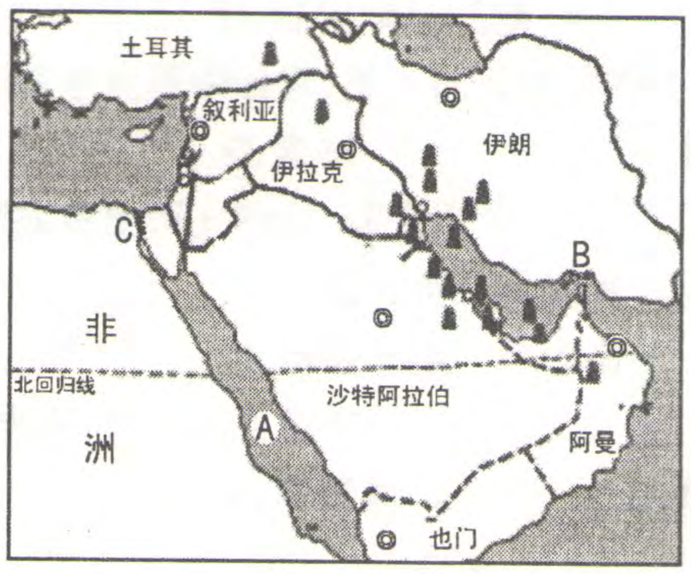

材料二　2017年3月15日至18日，沙特阿拉伯国王萨勒曼对中国进行了国事访问，访问期间，双方签署了产能、贸易、航天、新能源、教育等多个领域的一系列合作项目，两国的进一步交往将向中东国家和国际社会传递加强战略合作，深化发展对接，促进地区和平，打造人类命运共同体的积极信号。沙特阿拉伯是西亚重要的产油国，也是中国“一带一路”的重要站点，近年来，该国提出推动国内经济转型、摆脱对石油依赖的“愿景”，中国的“一带一路”和沙特的“愿景”深度对接，将有利于促进沙特经济多样化发展，调整过去单一的生产结构。

(1)在图中适当位置标出地中海。(1分)

(2)写出图中字母所代表的地理事物的名称。(3分)

海域：A _____　　海峡：B _____　　运河：C _____

(3)西亚地处亚、_____、_____三大洲的交界地带，目前是世界上石油储量最丰富的地区，被称为“_____”，其中沙特阿拉伯石油储量居世界第一位，以“_____”著称。(4分)

(4)沙特国王此次访华期间，双方签署了_____、贸易、_____、新能源、_____等多个领域的一系列合作项目。(3分)

(5)描述西亚地理位置的重要性。(2分)

(6)中国的“一带一路”与沙特的“愿景”深度对接，将会给沙特带来哪些影响？(2分)

附：奖励题(要自信，你能行！)(3分)(加入总分不再另计，高出满分者也按100分计)

22.(3分)读“欧洲西部气候类型分布图”，完成下列各题。

(1)位于同纬度的A、B、C三地，气温年较差从大到小的排序是_____，年降水量从大到小的排序是_____。(2分)

(2)高山气候主要分布在_____山脉。(1分)

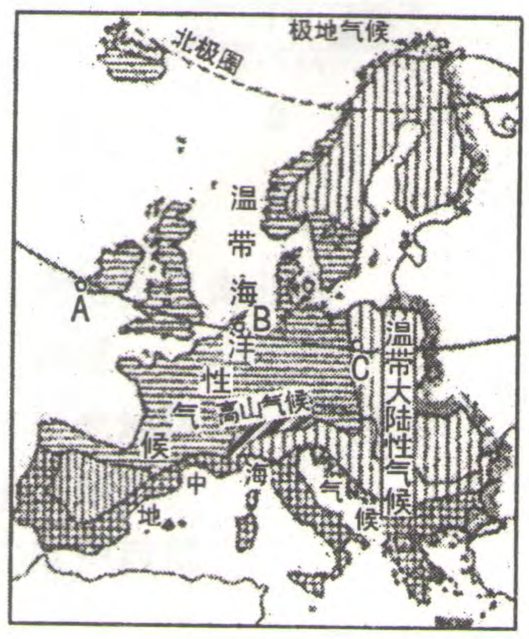

密封线内不要答题