考号_____ 姓名_____ 班级_____

密 封 线 内 不 得 答 题

2018—2019 学年度下期
江津区小学数学二年级期末检测题

（全卷 100 分，考试时间 60 分钟）

一、我会填空。（共 36 分。其中第 5 题 3 分，其余每空 1 分）

1. 数一数，填一填。

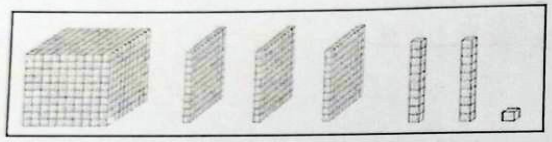

图中有（　　）个千，（　　）个百，（　　）个十和（　　）个一，这个数是（　　）。

2. 看图写数、读数。

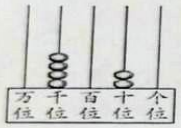

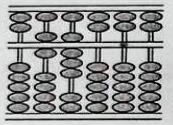

写作：（　　）　　写作：（　　）

读作：（　　）　　读作：（　　）

3. 用 0、0、4、6 四张卡片，组成最大的四位数是（　　）。

4. 最小的三位数与最大的两位数的和是（　　），差是（　　）。

5. 找规律填数。

（1）996，997，998，（　　），（　　）。

（2）1115，1125，1135，（　　），（　　），1165。

（3）（　　），530，630，（　　）830。

6. 填出合适的单位。

一节课的时间是 40（　　）；　　重庆到成都的距离是 340（　　）；

小明跑 50 米的成绩是 12（　　）；　操场一圈的长度是 400（　　）。

7. 正方形的（　　）边都相等，四个角都是（　　）角。

8. 7cm＝（　　）mm　　6000m＝（　　）km

120 秒＝（　　）分　　3 时＝（　　）分

9. 在◯里填上＞、＜或＝。

1000◯999　　6m◯60dm　　3900m◯4km

3456◯3465　　4085◯4580　　100 分◯1 时

10. 先测量，再根据要求填空。



（　　）cm

（　　）cm

（1）在图中截一个最大的正方形，正方形的边长是（　　）cm。

（2）剩下的图形是一个长方形，它的长是（　　）cm，宽是（　　）cm。

二、看钟面写时刻。（共 4 分）

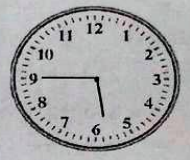

（　：　）

（　：　）

（　：　）

（　：　）

三、我会统计。（共 11 分）

下面是二（1）班男同学喜欢动物的情况：

大象	狮子	熊猫	小猴	熊猫	大象	小猴	熊猫
小猴	狮子	大象	小猴	熊猫	小猴	大象	狮子
小猴	大象	小猴	大象	小猴	狮子	熊猫	小猴

1. 用画正字的方法整理数据：

大象：　　狮子：　　小猴：　　熊猫：

2. 将整理的结果填入统计表中。

二（1）班评选动物明星票数统计表

动物	大象	狮子	小猴	熊猫	合计
人数					

3. 喜欢（　　）的人最多，喜欢（　　）的人最少。

四、选择题（5 分，每题 1 分）

1. 关于读数，下面的说法错误的是（　　）。

A、读数时，末尾的 0 不读。

B、中间有 1 个或连续两个 0，只读 1 个零。

C、读数时，0 都可以不读。

2. 钟面上，秒针走（　　）是 1 分。

A、1 小格　　B、1 大格　　C、1 圈

3. 一个长方形相邻的两条边分别是 5cm 和 4cm，它的四条边加起来是（　　）。

A、9cm　　B、10cm　　C、18cm

4. 20 个苹果，平均分给 6 个小朋友，每个小朋友最多可以分得（　　）个。

A、2 个　　B、3 个　　C、4 个

5. 3526 中的“5”表示（　　）。

A、5 个一　　B、5 个十　　C、5 个百

五、计算。（24 分）

1. 口算。（12 分）

900－300＝	670－230＝	30＋570＝	220＋80＝
430－90 ＝	300－150＝	8×9＝	315－210＝
78－65＝	502＋50＝	730－130＝	40÷5＝

2. 计算。（12 分）

246＋483＝　　894－387＝　　495＋467＝

验算

87÷9＝　　60÷7＝　　702－465＝

验算

六、解决问题。（20 分，每题 4 分）

1. 二年级 1 班有 45 人，一张桌子可坐 8 人，最多可以坐满几张桌子？还剩几个人？

2. 仓库原来有面粉多少袋？

3. 小丽跳绳 234 个，小华比小丽少跳 57 个，两人一共跳了多少个？

4. 学校小卖部原有本子 700 个，卖出去了 375 个，又购进了 450 个，请问商店现在有多少个本子？

5. 用 12m 长的绳子做跳绳。可以怎么做？请将表格补充完整。

长绳（根）	用去长度（m）	剩下长度（m）	短绳（根）
0	0	12	6
1	4	8	
2	8		
3			

密封线内不得答