学校_____ 班级_____ 姓名_____ 学号_____

2018 年秋学期阶段性学情调研

一年级数学试卷

这次检测不仅考察学科知识，还考查书写技能。只要认真、细心的答题，工整的书写，就能取得优异的成绩。加油吧！（卷面分：3 分）

一、我会填。（42 分）

1.

	7	6		4	

	2	4		8	

2. 和 9 相邻的两个数是（　　）和（　　）。

3. 比 5 大 1 是（　　），比 5 少 1 是（　　）。

4. 在 5、8、7、0、9、10 中，一共有（　　）个数，从左边数起，7 排在第（　　），左起第 5 个数是（　　），这几个数中，最小的数是（　　），最大的数是（　　），把这些数按从小到大的顺序排列：_____（横线 1 分）

5. 数一数。 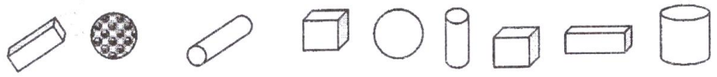

（1）正方体有（　　）个，长方体有（　　）个，圆柱有（　　）个，球有（　　）个。

（2）圈出左边 3 个，给正中间一个涂上颜色。（2 分）

（3）从右往左数，第（　　）和第（　　）个都是正方体。

6.

5	7	10	9
4　（　）	（　）（　）	（　）（　）	（　）（　）

7. 接着画，画满 10 个。

■■■■_____

△△△_____

○○○○○_____

8. ▭ 里各能画几个“○”？

▭ < ○○○○○○ < ▭

9. 画“△”，比“○”少 2 个。

○○○○○○○

_____

10. 照样子画下去。

△○□△○□△○□ _____

11. 从右边起涂色。

（1）涂 4 个　　□□□□□□□□

（2）涂第 4 个　　□□□□□□□□

12. 下面图形各代表一个数，算一算，他们各代表几？

○+☆=5　　○=（　）

☆－1=2　　☆=（　）

二、我会算（35 分）。

1．直接写得数（10 分）

3－2＝	1＋3＝	5－4＝	3－3＝
5＋0＝	4-2＝	5－5＝	5－3＝
1＋0＝	2-2＝	4－3＝	2－1＝
1＋4＝	3＋2＝	4－4＝	0＋3＝
5－2＝	2＋2＝	4－1＝	0＋1＝

2．不计算，得数大的算式后面□里画“√”。（4 分）

2-2 □	3+2 □	0+5 □	3+1 □
2-0 □	2+2 □	1+3 □	4+1 □

3．（　）里应填几？（12 分）

2+（　）＝4	0＋（　）＝4	1＋（　）＝4
（　）＋1＝5	（　）＋3＝5	5＋（　）＝ 5

4. 在 ◯里填上“ >”、“< ”或“=”，□里填合适的数。（9 分）

7 ◯ 3	5 ◯ 10	5+0 ◯ 5
2 ◯ 3	0 ◯ 1	9 ◯ 8
8< □	7 = □	6< □

三、我会选。（8 分）

1. 把下每行中不同类的圈出来。（4 分）

（1）

（2）

2. 比一比（4 分）

（1）重的画√。

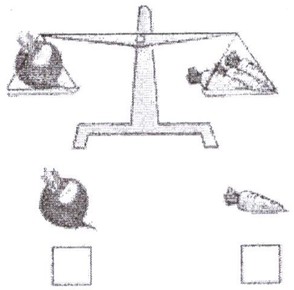

（2）最高的画○。



四、我会找位置 。（4 分）

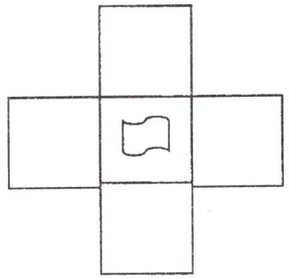

□的上面画△

□的下面画○

□的左边填 6

□的右边填 9

五、我会看图列式计算。（8 分）

1. ☆☆　☆☆☆　　☆　☆☆☆

□+□=□　　□+□=□



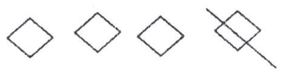

□○□=□　　□○□=□

（真棒！写完了要仔细检查哟！）