第一单元综合评估卷

时间:90 分钟　　总分:100 分

题号	一	二	三	四	五	六	七	八	九	总分
得分										

密

一、我是填空小能手。(9 分)

1. 常用的时间单位有(　　)、(　　)、(　　)。
2. 分针从数“3”走到数“8”,走了(　　)分;秒针从数“12”走到数“7”,走了(　　)秒。
3. “天气预报”从 18:33 到 18:38 播出了(　　)分。
4. (　　)时整,时针和分针组成直角。
5. 一场电影从下午 2 时 40 分开始放映,放了 1 时 30 分,结束时是(　　)时(　　)分。

封

二、填上合适的时间单位。(6 分)

从家到学校约走 20(　　)

跑 50 米约需 10(　　)

拍 30 下皮球约用 30(　　)

线

三、读一读,写一写。(13 分)

1.

___时___分

[　　:　　]

___时___分

[　　:　　]

___时___分

[　　:　　]

2.

(　　)分钟 →

(　　)分钟 →

[6:30]　　[　　]　　[　　]

扫描全能王 创建

四、在◯里填上“>”“<”或“=”。(6 分)

200 秒 ◯ 3 分　　1 时 40 分 ◯ 100 分　　90 分 ◯ 9 时

5 分 ◯ 500 秒　　4 分 ◯ 240 秒　　3 时 ◯ 18 分

五、我来连一连。(4 分)

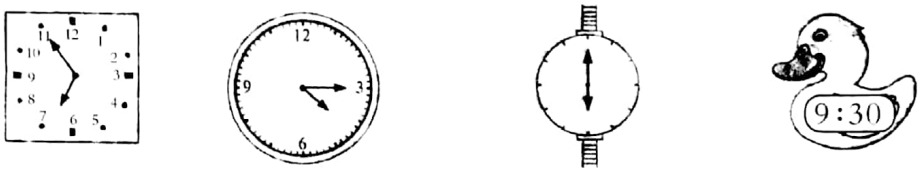

4 时 15 分　　6:00　　9 时 30 分　　6:55

六、我是小画家。(6 分)

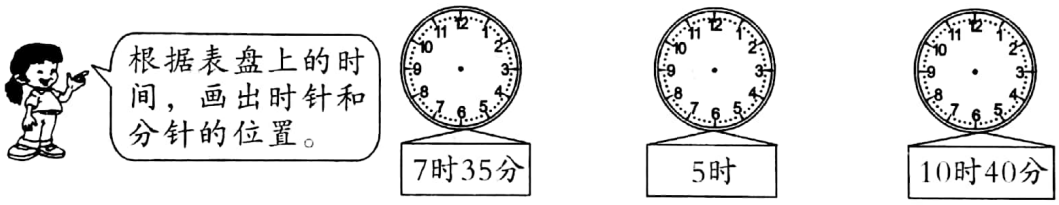

七、要仔细观察。(12 分)

开始　　结束

“六一”儿童节庆祝会是(　　)时(　　)分开始,(　　)时(　　)分结束的,共开了(　　)小时(　　)分钟。

八、我是小神算。(8 分)

1 小时 +30 分 =(　　)分　　3 分 −20 秒 =(　　)秒

20 分 +40 分 =(　　)小时　　2 小时 50 分 −40 分 =(　　)小时(　　)分

1 分 −40 秒 =(　　)秒　　1 分 20 秒 +1 分 =(　　)分(　　)秒

扫描全能王 创建

九、解决问题。（36 分）

1. 坐火车。（6 分）

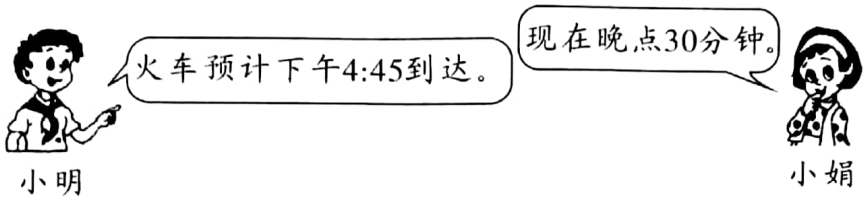

火车什么时候到达？

2. 你知道好再来商店的营业时间吗？（6 分）



3. 下面是太华路小学上午的作息时间表。（8 分）

8:15～8:55	第一节
9:05～(　　)	第二节
10:00～10:40	第三节
(　　)～11:30	第四节
11:35	放学

（1）把左边的作息时间表填完整。

（2）上午同学们在校时间是多长？

扫描全能王 创建

4. 学校组织同学们去看话剧，下午 开演，下午 结束。（9 分）

（1）

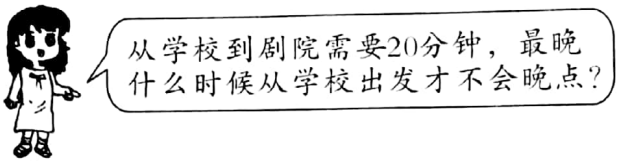

（2）

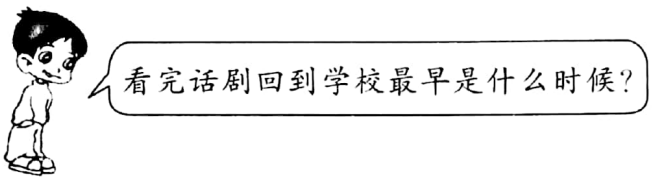

（3）



5. 育红小学三年级同学去春游，路上用了 1 小时 15 分，上午 9:10 到达，他们是早上几时几分出发的？（7 分）

扫描全能王 创建