第三单元评估检测题(A卷)

（时间:40分钟　总分:100分）

一、填空(每空1分,共33分)

1.填出下面的八个方向。

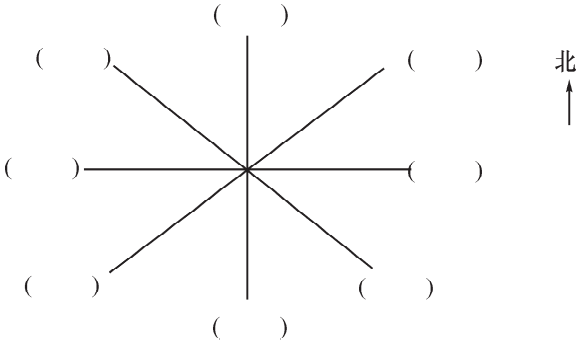

2.看图填位置。

公园	中国银行	超市
人	民	路
邮局	学校	菜场
园	林	路
广场	书店	供电局

北

(1)(　　)在学校的东面,书店的西面是(　　)。

(2)公园在邮局的(　　)面,超市在学校的(　　)面。

(3)园林路的南面有(　　)、(　　)、(　　),公园、中国银行、超市在人民路的(　　)面。

(4)学校的(　　)面是中国银行,供电局在学校的(　　)面。

(5)菜场在书店的(　　)面,在中国银行的(　　)面。

3.在地图或平面图上的方向一般是上(　　)下(　　),左(　　)右(　　)。

4.早晨起床,面朝太阳,前面是(　　),后面是(　　)面,左面是(　　)面,右面是(　　)面。

5.你能帮助小朋友找到各自的家吗?在每幢房子旁边写上小朋友的名字。

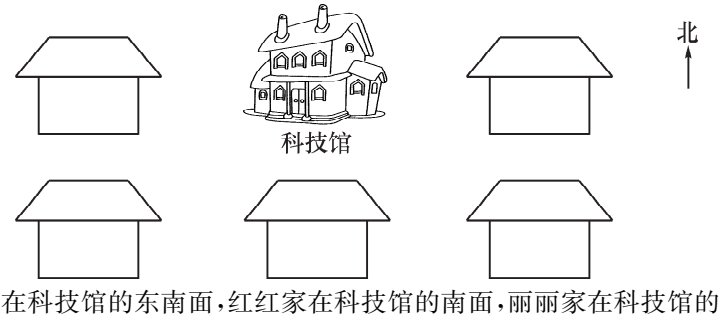

(1)明明家在科技馆的东南面,红红家在科技馆的南面,丽丽家在科技馆的西南面。

(2)红红家的东北面是东东家,红红家的西北面是婷婷家。

二、计算(每题12分,共24分)

1.直接写出得数。(12分)

7×8=	81－9=	42÷7=	45－5=
8×8=	36÷6=	24－6=	48÷8=
9×9=	54＋9=	45÷5=	24÷6=

2.列竖式计算。(12分)

(1)62÷8　　(2)43÷9　　(3)15＋78－26　　(4)41－28＋39

三、操作(每题 8 分,共 16 分)

1. 根据要求画图形。

(1)在☆的东面画○,北面画●,西面画★,南面画□。

(2)在☆的东南面画△,在☆的西北面画▲。

(3)☆在◎(　　)面,在▲的(　　)面。

		◎
	☆	

北

2. 根据题目的叙述,在方格中填写相应的名称。

(1)医院在街心花园的北面。

(2)街心花园的南面是光明小学。

(3)邮局在街心花园的东面。

(4)银行在街心花园的西面。

(5)邮局的南面是商场,北面是体育馆。

(6)银行的北面是商店,光明小学的西面是书店。

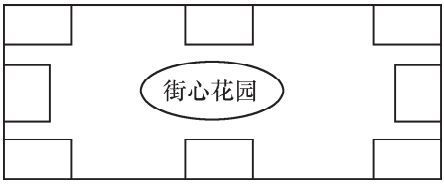

四、解决问题(共 27 分)

1. 根据图示填空。(15 分)

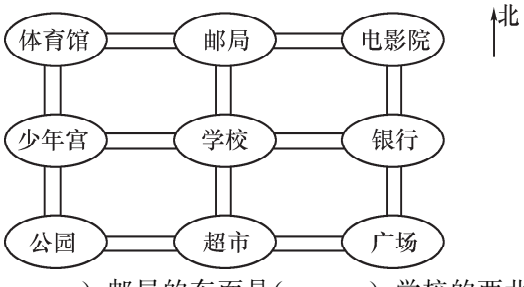

(1)学校的南面是(　　),邮局的东面是(　　),学校的西北面是(　　),银行的北面是(　　),超市的西面是(　　)。

(2)公园的北面有(　　)、(　　);(　　)与(　　)在广场的西面。

(3)从学校走到电影院,可以先向(　　)走到(　　),再向(　　)走到电影院;或者先向(　　)走到(　　),再向(　　)走到电影院

2. 根据路线填写。(12 分)

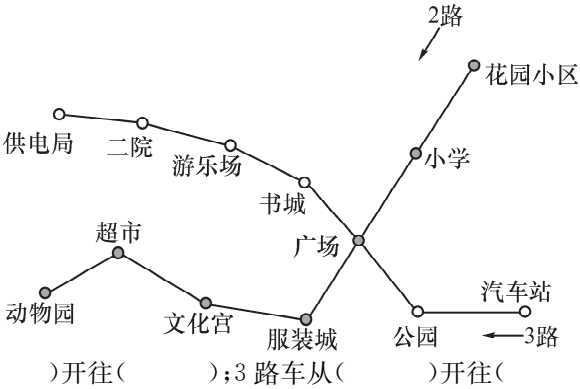

(1)2 路车从(　　)开往(　　);3 路车从(　　)开往(　　)。

(2)小明从汽车站出发到书城,应乘(　　)路车,乘(　　)站。

(3)小亮从花园小区出发到游乐场,应先乘(　　)路车到(　　)站下车,再乘(　　)路车到游乐场。

(4)小亮从汽车站到小学可以怎样乘车?提示:仿照第(3)题写。(3 分)