注意事项
①考生要写清校名、姓名和班级
②不在试卷上做任何标识
③字迹要清楚，卷面要整洁

姓名

班级

学校

考号

线 封 密

第四单元综合测试卷

——认识万以内的数

（时间：60 分钟　满分：100 分＋10 分）

题号	一	二	三	四	五	六	总分	＋	附加题
得分									

一 我会填。（每空 1 分，共 33 分）

1. 一个数，从右边数，百位是第（　　）位，第五位是（　　）位。

2. 一个数由 5 个千和 3 个十组成，这个数是（　　）。

3. 万以内数的读法是从（　　）位起，按照数位顺序读；千位上是几就读（　　），百位上是几就读（　　）；中间有一个或两个 0，只读（　　）个零，末尾不管有几个零都（　　）。

4. 最大的三位数是（　　），最小的三位数是（　　），他们相差（　　）。

5. 3075 是（　　）位数，它的最高位是（　　）位，7 在（　　）位上表示（　　）。

6. 找规律填数。

(1)420、430、440、_____、_____。

(2)1998、1999、_____、_____、2002。

(3)4185、4190、4195、_____、_____。

7. 写出下列各数约等于几百或几千。

4201≈（　　）　　598≈（　　）

6998≈（　　）　　684≈（　　）

8. 按顺序排列下面各数。

8880　888　8800　8080

（　　）＞（　　）＞（　　）＞（　　）

9. 用 6、0、0、8 四个数组成一个四位数，最大的数是（　　），最小的数是（　　），只读一个零的数是（　　），一个零都不读的数是（　　）。

二 我会判断。(对的画“√”,错的画“×”)(5 分)

1. 最大的三位数与最小的四位数只相差 1。 (　　)

2. 一万里有 100 个 100。 (　　)

3. 在算盘上一个下珠表示 5,一个上珠表示 1。 (　　)

4. 828 这个数中的两个“8”表示的意义相同。 (　　)

5. 一个数的最高位是百位,它是一个四位数。 (　　)

三 我会选择。(将正确答案的序号填入括号里)(5 分)

1. 与 1000 相邻的两个数是(　　)。

①1010 和 990　　②1010 和 1001　　③999 和 1001

2. 一个数的最高位是万位,这个数是(　　)位数。

①3　　②4　　③5

3. 28□3>2875,□里可以填(　　)。

①0、1、2、3、4、5、6、7　　②8、9　　③7、8、9

4. (　　)个十是一千。

①10　　②100　　③1000

5. 475 里的“4”表示(　　)。

①4 个一　　②4 个十　　③4 个百

四 按要求完成下列各题。(共 32 分)

1. 读出下面各数。(4 分)

6800 读作(　　)　　326 读作(　　)

2008 读作(　　)　　4020 读作(　　)

2. 写出下面各数。(4 分)

三千六百八十二　　写作:_____

一千零三十八　　写作:_____

六千零六十　　写作:_____

一万　　写作:_____

3. 看图写数。(6 分)

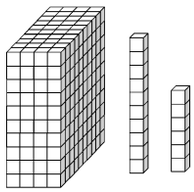

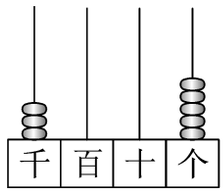

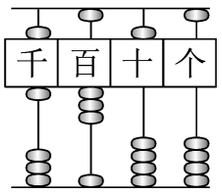

(　　)　　(　　)　　(　　)

4. 照样子填一填。(6 分)

5362＝(　5000　)＋(　300　)＋(　60　)＋(　2　)

9843＝(　　)＋(　　)＋(　　)＋(　　)

8600＝(　　)＋(　　)

1008＝(　　)＋(　　)

5. 在◯里填上“＞”“＜”或“＝”。(6 分)

392 ◯293　　1020 ◯1200　　3050 ◯3505

1000 ◯999　　1000 ◯1001　　2468 ◯2460

6. 按要求写数。(6 分)

(1)写出 3 个个位、十位和百位上的数字相同的三位数。

(2)五百五百地数,写出 2000 与 4000 之间的数。

五 计算。(12 分)

5600＋3200＝　　8900－700＝　　900＋200＝

450－200＝　　3400－300＝　　1000－300＝

2000－1900＝　　4000－500＝　　8000－400＝

7800＋200＝　　200＋1100＝　　890＋100＝

六 解决问题。(共 13 分)

1.《故事王》和《格林童话》大约各有多少本?(把书名填在合适的地方)(4 分)

《少儿百科》				
2060 本	2200 本	1800 本	900 本	5300 本

2. 某电视机厂今年 6、7、8、9 四个月的产量如下:

月份	6	7	8	9
生产台数	8905	7120	7880	9120

(1)每个月的产量各接近几千台?(4 分)

8905≈　　7120≈　　7880≈　　9120≈

(2)哪两个月的产量差不多?(2 分)

(3)把 4 个月的产量按从大到小的顺序排列起来。(3 分)

智力冲浪(附加题)

一个三位数,它的三个数位上的数字和是 19,百位上的数字与个位上的数字和是 14,十位上的数字比百位上的数字少 1。这个三位数是(　　)。(10 分)

线 封 密