B卷

第五单元综合提优测评卷

分米和毫米

时间:40 分钟　满分:100 分

题　序	一	二	三	四	五	六	七	八	九	总　分	结分人	核分人
得　分												

一、填一填。(每空 1 分,共 16 分)

1. 测量硬币的厚度,用(　　)作单位比较合适。
2. 测量课桌的高,一般要用(　　)作单位比较合适。
3. 在直尺上,数字 2 到数字 3 之间有(　　)个小格,每一个小格代表(　　)毫米,10 个小格就是(　　)毫米,也就是(　　)厘米。
4. 1 厘米=(　　)毫米　　3 分米=(　　)厘米
   50 毫米=(　　)厘米　　2 米=(　　)分米
   80 厘米=(　　)分米　　3 厘米=(　　)毫米
5. 在下面的括号里填上合适的长度单位。

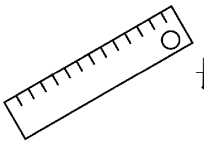
长约 20(　　)。

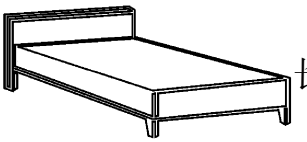
长约 2(　　)。

高约 3(　　)。

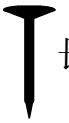
长约 5(　　)。

二、在◯里填上“>”“<”或“=”。(共 8 分)

1 米◯100 厘米　　2 厘米◯10 毫米
3 米◯40 分米　　1 分米◯100 毫米
100 分米◯1 米　　20 毫米◯2 厘米
6 毫米◯1 分米　　10 米◯10 分米

三、连一连。（共 10 分）

1. 小蚂蚁的身长　　3 毫米
   课桌的宽　　18 厘米
   教室的长　　8 米
   铅笔的长　　8 分米

2. 量跳远的成绩用　　 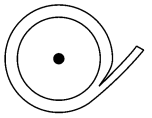

   量手掌的宽度用　　 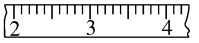

四、填上合适的数。（共 8 分）

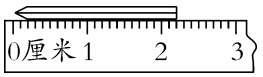

_____厘米_____毫米

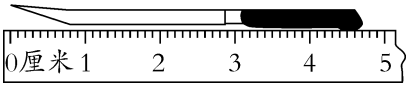

_____厘米_____毫米

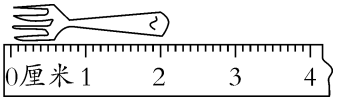

_____厘米_____毫米

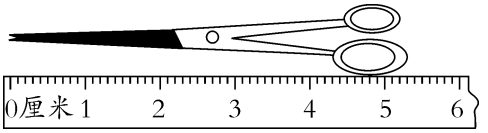

_____厘米_____毫米

五、量一量。（共 14 分）

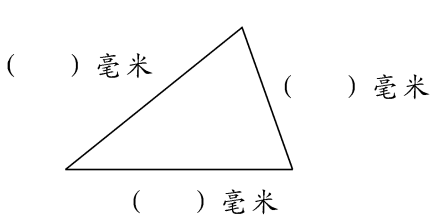

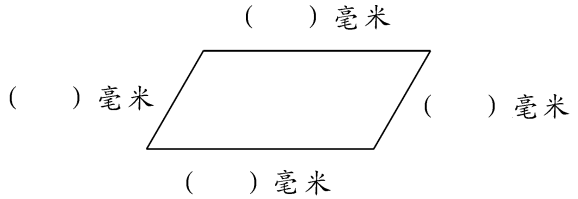

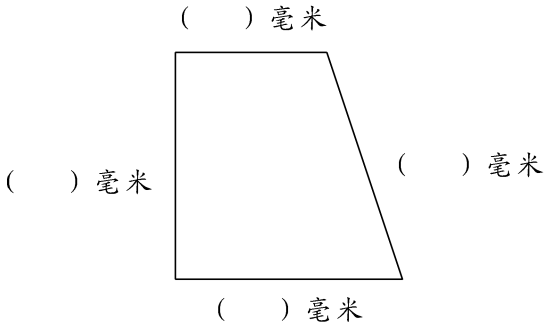

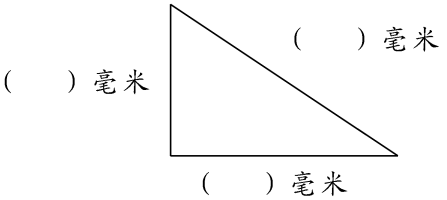

六、判一判。（对的画“√”，错的画“╳”）（每题 1 分，共 6 分）

1. 小芳的身高为 125 毫米。　　（　　）

2. 一枝钢笔的长为 15 厘米。（　　）

3. 教室黑板的长为 5 厘米。（　　）

4. 课桌的长为 1 米。（　　）

5. 教学楼的高为 15 米。（　　）

6. 一条河的宽为 4 分米。（　　）

七、把下面各数按从大到小的顺序排列起来。（每题 3 分，共 6 分）

1. 3 厘米　3 毫米　3 分米

（　　）>（　　）>（　　）

2. 6 厘米　66 分米　6 米

（　　）>（　　）>（　　）

八、画一画。（共 4 分）

1. 画一条 38 毫米长的线段。

2. 画一条比 1 分米短 3 厘米的线段。

九、解决问题。（每题 4 分，共 28 分）

1. 小明的身高为 14 分米，小强比小明矮 2 分米。小强的身高为多少分米？

2. 一支铅笔用去 8 厘米，还剩 10 厘米，这支铅笔原来长多少厘米？合多少毫米？

3. 小明和小军比赛跳高，小明跳了 85 厘米，小军跳了 9 分米，谁跳得高？高多少？

4. 做一套衣服用布 15 分米，做两套同样的衣服用布多少分米？合多少米？

5.

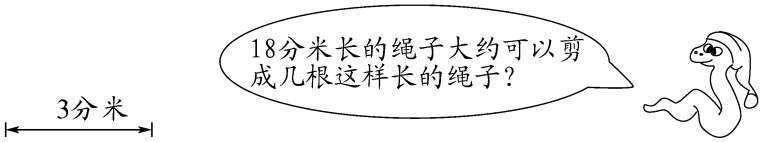

6.



7. 小方从家到学校要走 400 米，小南从家到学校要走 200 米。小方从家到小南家要走多少米？



第五单元综合提优测评卷(B 卷)

一、1. 毫米　**2.** 分米　**3.** 10　1　10　1

4. 10　30　5　20　8　30

5. 厘米　米　米　厘米

二、＝　＞　＜　＝　＞　＝　＜　＞

三、略　**四、**2　2　4　7　2　1　5　3

五、略

六、1. ×　**2.** √　**3.** ×　**4.** √　**5.** √　**6.** ×

七、1. 3 分米　3 厘米　3 毫米

2. 66 分米　6 米

6 厘米

八、略

九、1. 14－2＝12(分米)

2. 10＋8＝18(厘米)　18 厘米＝180 毫米

3. 9 分米＝90 厘米　小军跳得高

90－85＝5(厘米)

4. 15＋15＝30(分米)　30 分米＝3 米

5. 18÷3＝6(根)　**6.** 3×5＝15(米)

7. 200＋400＝600(米)