第五单元评估检测题(B卷)

(时间:60分钟　总分:100分)

一、填空(第8题2分,每空1分,共33分)

1. 在括号内填上合适的长度单位。

(1)一根筷子大约长2(　　)。　(2)一本字典厚3(　　)。

(3)一张银行卡厚大约1(　　)。　(4)食指宽约10(　　)。

(5)妈妈身高约165(　　)。　(6)文具盒长约20(　　)。

2. 填一填。

6米=(　　)分米　5分米=(　　)厘米

500厘米=(　　)米　40毫米=(　　)厘米

2米=(　　)厘米　10厘米=(　　)毫米

3. 在◯里填上">""<"或"="。

5厘米◯5分米　35毫米◯30厘米　4米◯400厘米

8厘米◯60毫米　15厘米◯20毫米　9分米◯90厘米

4. 森林动物运动会上,小狗、小青蛙和小兔子比赛跳远,小青蛙跳了14分米,小狗跳了98厘米,兔子正好跳了1米。第一名是(　　),第二名是(　　),第三名是(　　)。

5.

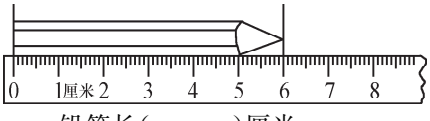

铅笔长(　　)厘米

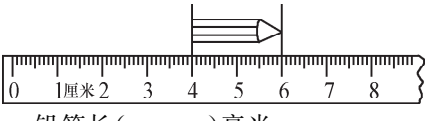

铅笔长(　　)毫米

6. 先估一估,量一量。

估计这条线段长(　　)厘米,实际量一量是(　　)毫米。

7. 把一条长24分米的绳子,平均剪成6段,每段长(　　)厘米。

8. 把下面各数按从大到小的顺序排列。(2分)

10厘米　10分米　99厘米　9分米　90毫米

9. 一根4米的木头,工人师傅每8分米锯成一段,每次只能锯一段,需要锯(　　)次。

10.

(1)这根直尺长大约是1(　　),厚大约是1(　　)。

(2)这根木条长(　　)毫米,大约是(　　)厘米。

二、判断(每题2分,共10分)

1. 10张纸的厚度大约是1厘米。(　　)

2. 小明的身高是12厘米。(　　)

3. 一张身份证的厚度约是1毫米。(　　)

4. 长度单位之间的进率都是10。(　　)

5. 一张课桌的高约是70分米。(　　)

三、选择(每题2分,共10分)

1. 下面哪个物体的长度接近1分米?(　　)

A. 数学书封面的长边

B. 田字格练习本封面的短边

C. 橡皮的长边

2. 下面哪个物体的厚度接近1毫米?(　　)

A. 一本数学书　B. 一扇木门　C. 一枚5角硬币

3. 某市6月份的天气温暖少雨,降雨量只有25(　　)。

A. 分米　B. 厘米　C. 毫米

4. 8米是8个10(　　)。

A. 分米　B. 厘米　C. 毫米

5. 哥哥身高15分米,弟弟和哥哥差不多高,弟弟的身高可能是(　　)。

A. 16米　B. 140厘米　C. 14厘米

四、操作(共 19 分)

1. 量一量。(7 分)

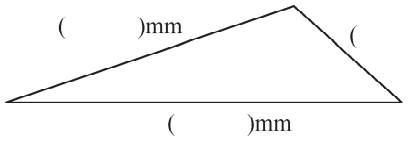

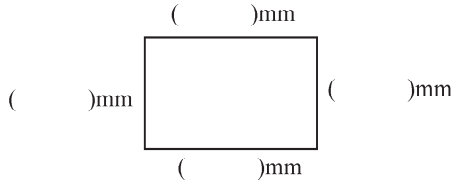

2. 画一画。(6 分)

(1)画一条比 1 分米短 5 厘米的线段。

(2)画一条比 40 毫米长 2 厘米的线段。

3. 看表分析,回答问题。(每小题 2 分,共 6 分)

下面是某地区去年 7、8、9 月份的降雨量。

月份	7 月	8 月	9 月
降雨量(毫米)	165	143	100

(1)这一地区去年(　　)月的降雨量最多,(　　)月的降雨量最少。

(2)9 月份的降雨量比 7 月份少(　　)毫米。

(3)前年 8 月份的降雨量比去年 8 月份少一些,前年 8 月份的降雨量可能是多少?在合适的答案下面画“√”。

132 毫米	155 毫米	200 毫米	90 毫米

五、解决问题(第 1、2 题每题 5 分,其余每题 6 分,共 28 分)

1. 爸爸的身高是 17 分米,小明比爸爸矮 70 厘米。小明的身高是多少厘米?

2. 每根跳绳长 2 米,现有 19 米长的绳子,能做几根这样的跳绳?还余下几米?

3. 明明的跳绳长 24 分米,红红的跳绳长 2 米,谁的跳绳长?长多少分米?

4. 用两根铁丝分别围成一个每条边都相等的三角形和六边形,哪根铁丝短一些?短多少厘米?

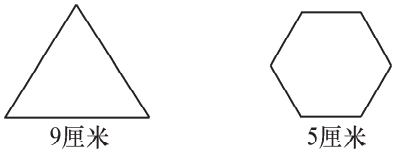

5. 哥哥一“拃”的长度是 9 厘米,妹妹一“拃”的长度是 7 厘米。哥哥用手量了量一张课桌的长边,大约 7“拃”长。

(1)这张课桌的长大约是多少厘米?

(2)如果让妹妹来量这张课桌的长边,大约是几拃长?

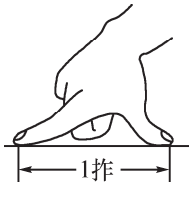

六、思维冲浪

一根彩带对折三次后沿着折痕剪开,量得其中一段长 6 分米。这根彩带原来长多少分米?