B卷

第七单元综合提优测评卷

角的初步认识

时间:40 分钟　满分:100 分

题　序	一	二	三	四	五	总　分	结分人	核分人
得　分								

一、填一填。(每空 1 分,共 27 分)

1. 下图中哪些图形是角?是角的在(　　)里画“√”;不是的画“×”。

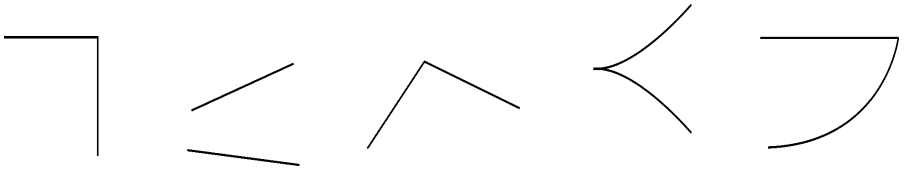

2. 下面的图形中各有几个角?

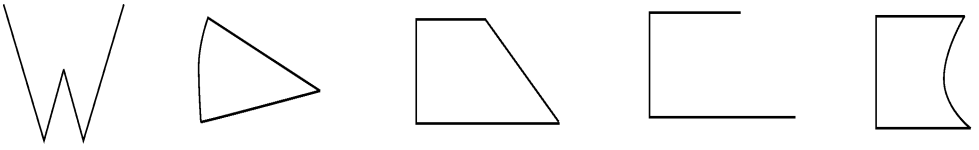

3. 角有(　　)个顶点,(　　)条边。
4. 直角三角尺上有(　　)个角,其中有(　　)个是直角。
5. 长方形和正方形都有(　　)个直角。
6. 钟面上(　　)时或(　　)时整时,分针与时针之间成直角。
7. 下面的角哪些是直角,哪些是锐角,哪些是钝角?

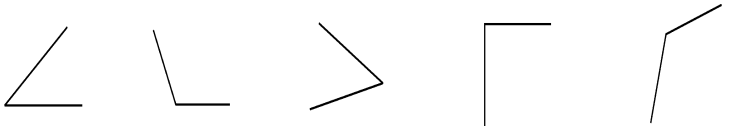

8. 把一个角的两边画得长一些,这个角的大小(　　),这说明了角的大小与(　　)没有关系。
9. 把一个角的两条边张开得越大,这个角也就越(　　),这说明了角的大小与(　　)有关。
10. 一个钝角去掉一个直角后,剩下的角是(　　)角。

二、判一判。(对的画“√”,错的画“×”)(每题 1 分,共 5 分)

1. 四边形中一定有 4 个角。 (　　)
2. 把一个角的两边继续画长,这个角会越来越大。 (　　)
3. 从一个三角形中剪去一个角,就只剩下了 2 个角。 (　　)
4. 两个锐角拼成一个角后一定是钝角。 (　　)
5. 钝角都比锐角大。 (　　)

三、选一选。(把正确答案的序号填入括号中)(每题 2 分,共 12 分)

1. 下列图形中是锐角的是(　　)。

A.　　B.　　C.　　D.

2. 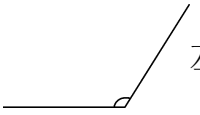 左图这个角比直角(　　)。

①大　②小　③一样大　④无法确定

3. 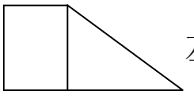 左图中有(　　)个锐角。

①1　②2　③3　④4

4. 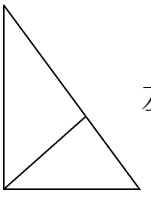 左图中有(　　)个直角。

①1　②2　③3　④4

5. 下图中角 1 比角 2(　　)。

①大　②小　③相等　④不确定

6. 下面图形中图(　　)中有钝角。

A.　　B.　　C.　　D.

四、动手操作。(每题 6 分,共 30 分)

1. 标出下面每个角的顶点和边。

2. 给下面图形中的直角画上标记。

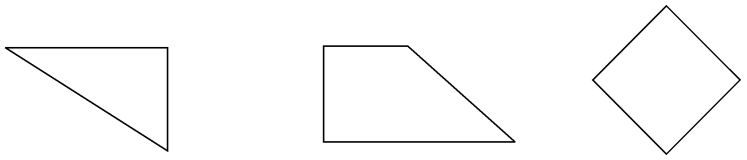

3. 按要求在下面的图形中分别再画一条线。

(1)形成一个角。　　(2)形成两个角。　　(3)形成四个角。

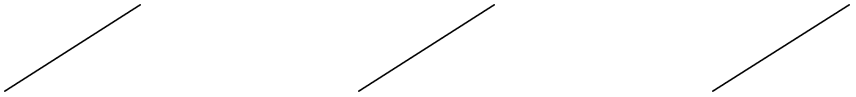

4. 按要求在下面每个图里添画一条线段。

增加四个直角　　共有三个直角

5. 在方格图上分别画一个锐角、一个直角和一个钝角。



五、解决问题。(第 1 题 8 分,其余每题 6 分,共 26 分)

1. (1)用两根小棒,你可以摆出直角吗?(请你画出来)

(2)用三根小棒,你可以摆出直角吗?(请你画出来)

2. 数一数。

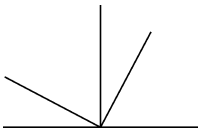

有(　　)个锐角,

有(　　)个直角,

有(　　)个钝角。

3. 在下面的图形中添加一条线段,使图形中有 6 个直角。



4. 请你在钟面上画出时针和分针,使它们组成的角分别是锐角、直角和钝角。



锐角



直角



钝角

第七单元综合达标训练卷(B 卷)

一、**1.** ✓　×　✓　×　×

2. 3　1　4　2　2

3. 1　2　**4.** 3　1　**5.** 4　**6.** 3　9

7. 锐　钝　锐　直　钝

8. 不变　边的长短

9. 大　两条边张开的程度　**10.** 锐

二、**1.** ✓　**2.** ×　**3.** ×　**4.** ×　**5.** ✓

三、**1.** ③　**2.** ①　**3.** ②　**4.** ③　**5.** ②　**6.** ③

四、略

五、**1.** 略　**2.** 4　3　2　**3.** 略　**4.** 略