密 封 线 内 不 要 答 题

2020—2021学年度第二学期期中试题

一年级 数学

（满分100分，其中试题95分，卷面5分）

题号	一	二	三	四	五	六	卷面	总分
得分								

一、填空小能手(每空1分，共28分)

1.（　）个十和（　）个一是68;（　）个十是一百。

2. 个位和十位相同的两位数有（　）个，其中最大的是（　）。

3. 比27大比31小的数有（　）、（　）、（　）。

4. 按规律写数。

（1）37、（　）、57、（　）、（　）、（　）。

（2）（　）、56、58、（　）、（　）、64 。

5. 100以内最大的两位数是（　　），最小的整十数是（　　），他们相差（　）。

6. 写出个位是5的3个两位数（　），（　），（　）。

7. 73是由（　）个十和（　）个一组成。（　）个一是一十。

8. 和37相邻的两个数是（　）和（　），89前面的一个数是（　），后面第三个数是（　）。

二、计算小能手。(21分)

1. 口算(14分)

12-6=　　15-9 =　　5+9=　　0+18=

18-6=　　14+5 =　　13-7=　　10+6 =

12-（　）=6　　4+（　）=13　　15-（　）=8

10+（　）=10　　12+（　）=15　　5+2=（　）- 6

2. 在（）里最大能填几。(3分)

11-（　）>8　　14-（　）>9　　（　）+7<12

3. 看图列式计算。（4分）

△△△△△△△△△△　?个

11个

□○□ = □(个)

○○○○○　○○○

○○○○　○○○○○○

?个

□○□ = □(个)

三、它们分别看到的哪幅图？请连一连。（3分）



四、判断，请在对的后面画√，错的后面画 × 。(10分)

1、从不同的方向观察一个物体，看到的形状可能不同。(　　)

2、比 59 大的两位数有无数个。　　(　　)

3、今年我比姐姐小 3 岁，3 年后我们就一样大了。　　(　　)

4、用 8 个小正方体就能拼成一个大正方体。　　(　　)

5、读数和写数，都是从个位起。　　(　　)

五、我做得最仔细。(把正确答案的序号填在括号内)。(8分)

1. 从 56 到 62 之间有几个数。(　　)

A. 5 个　　B. 6 个　　C. 7 个

2. 黑板的表面是什么图形(　　)

A. 圆形　　B. 三角形　　C. 长方形

3. 下面的数中，十位上的数比个位上的数小 4 的数是(　　)。

A. 73　　B. 37　　C. 40

4. 下列最接近 80 的数是(　　)

A. 79　　B. 70　　C. 90

六、解决问题。(25分)

1.

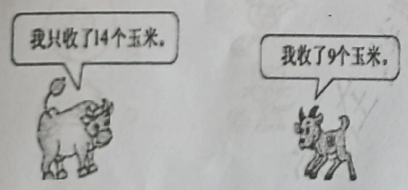

小羊还要收多少个玉米才能和小牛收得同样多？(5分)

□○□＝□(个)

答：小羊还要收____个玉米才能和小牛收得同样多。

2. 停车场开走了 6 辆小汽车，现在还有 9 辆，停车场原来有多少辆小汽车？(5分)

□○□＝□(辆)

答：停车场原来有____辆小汽车。

3. 还差几盆就摆满了？(5分)



□○□＝□(盆)

答：还差___盆。

4. 学校篮球队有 12 人，羽毛球队有 9 人，网球队有 7 人。(10分)

(1) 篮球队和网球队一共有多少人？(4分)

□○□＝□(人)

答：篮球队和网球队一共有____人。

(2) 请你再提出一个问题，并解答。(6分)

_____？

□○□＝□(人)

答：_____。