2020-2021 学年第二学期期末考试卷 C

贴条码处

二年级数学

满分:100分

题号	一	二	三	四	五	六	总分
得分							

请在各题目的答题区域内作答,超出黑色矩形边框限定区域的答案无效

评卷人	得分

一、公正小法官。(对的打"√",错的打"×")(5分)

1. 1只鸡重3克。 ( )
2. 读6004时,只读出一个零。 ( )
3. 把30个玻璃球分给6个同学,每个同学一定分得5个。 ( )
4. 把8-2=6,6×3=18合并成一个综合算式是8-2×3。 ( )
5. 一组灯按"红、红、黄、黄、红、红、黄、黄……"的规律摆放,第19盏灯是黄色。 ( )

评卷人	得分

二、选择大转盘。(只填正确答案的序号)(10分)

6. 6□32<6271,□里最大能填( )。

① 1 ② 2 ③ 3

7. 下面算式中,除数是4的是( )。

① 8÷2 ② 4÷2 ③ 24÷4

8. 一艘豪华游轮最多可以载1500人,甲旅游团有598人,乙旅游团有875人,两个旅游团能同时乘坐这一艘游轮吗?( )。

① 能 ② 不能 ③ 不确定

9. 在右面的方格中,每行、每列都有1~4这四个数,并且每个数在每行、每列都只出现一次。△是( )。

4			3
1			
△	2		
			4

① 2 ② 3 ③ 4

10. 有一盒乒乓球,数量在50个~60个之间,如果每7个装一袋,正好能装完,如果每9个装一袋,全部装完至少需要( )个袋子。

① 7 ② 8 ③ 9

请在各题目的答题区域内作答,超出黑色矩形边框限定区域的答案无效

座号 考场 考号 姓名 班级 学校 2421021013

密 封 线

评卷人	得分

三、认真填写员。（每空1分，共33分）

11. 看图写数，并读出来。

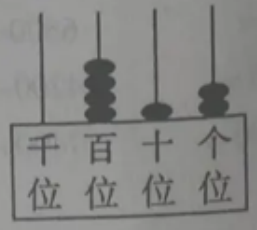

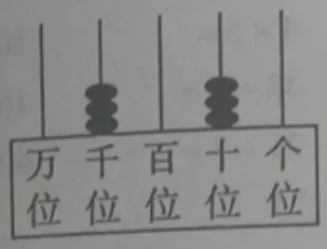



写作：(　　)　写作：(　　)　写作：(　　)

读作：(　　)　读作：(　　)　读作：(　　)

12. (1)6200＝(　　)+(　　)　　3000+50+7＝(　　)

(2)一个数的千位上是5，个位比千位多3，其他数位上都是0。这个数是(　　)。

13. 数一数，右图中共有(　　)个轴对称图形。

14. (1)商场里空调的售价是3073元，约是(　　)元。

(2)一瓶果汁重500克，2瓶这样的果汁重(　　)千克。

15. (1)30里面有(　　)个5，44里面最多有(　　)个6。

(2)☆÷7＝5……□，□里最大能填(　　)，此时，☆是(　　)。

16. 在○里填“>”“<”或“=”。

3千克 ○ 300克　　54÷9 ○ 36÷6　　5×4+5 ○ 5×4−5

6000克 ○ 6千克　　18÷9 ○ 20÷4　　42÷6+7 ○ 42÷7+6

17. □里最大填几？

4×□<25　　□×7<40　　8×□<45　　□×9<60

18. 妈妈给丽丽买了一个杯子和一个牙刷，一共用了12元钱，买一个杯子的钱可以买3个牙刷。一个杯子(　　)元，一个牙刷(　　)元。

19. 张芳在计算96−□÷6时弄错了运算顺序，先算减法后算除法了，结果得数是8。正确的得数应该是(　　)。

20. 三个小朋友比赛划船，他们分别是第几名？

第(　　)名　　第(　　)名　　第(　　)名

评卷人	得分

四、慎重小会计。（18分）

21. 直接写出得数。（6分）

$63 \div 7 =$	$4 \times 5 =$	$500+700 =$	$6500-500 =$
$35 \div 5 =$	$48 \div 6 =$	$1600+300 =$	$4200-3000 =$
$24 \div 3 =$	$21 \div 3 =$	$4000+5000 =$	$7400+300 =$

22. 用竖式计算。（6分）

$34 \div 4 =$　　$62 \div 8 =$　　$50 \div 7 =$

23. 计算下面各题。（6分）

$72 \div (16-7)$　　$8+16 \div 4$　　$46+3 \times 8$

评卷人	得分

五、仔细操作员。（10分）

24. 下面现象中，在平移的下面画“△”，在旋转的下面画“○”。（4分）

（　　）

（　　）

（　　）

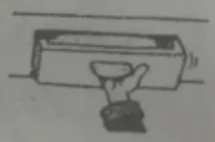

（　　）

25. 刘兰调查了本班部分同学最喜欢的业余活动情况。

看电视	看书	运动	下象棋
正 正	正 正 丅	正 正 正 一	丅

（1）根据上面调查的结果完成下面的统计表。（4分）

活动	看电视	看书	运动	下象棋
人数				

（2）最喜欢（　　）的人数最多，刘兰一共调查了（　　）人。（2分）

评卷人	得分

六、解决问题。（24分）

26. 某旅行团有36人，一共需要租几辆出租车？（3分）

限乘4名乘客

27. 把下面这些花生油全部倒入能装6千克的油桶中，至少需要几个这样的油桶？（4分）

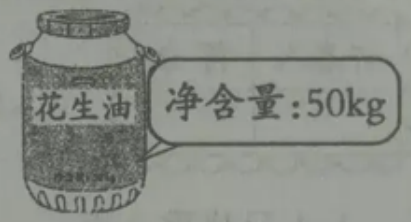

28. 二(2)班组织跳绳活动，李老师用一根30米长的绳子每8米做一根长跳绳，最多可以做多少根长跳绳？剩下的每2米做一根短跳绳，可以做多少根短跳绳？（4分）

29. 丽丽带了30元去买面包，售货员告诉她，如果再加2元就能买8个面包，平均每个面包多少元？（4分）

30. 一辆双层巴士的下层有35人，上层有8排，每排坐了5人。这辆巴士一共有多少人？（4分）

31. 黄铃和她的3个好朋友一起折纸鹤，平均每人折了9只纸鹤，如果把这些纸鹤每6只穿成一串，可以穿成几串？（5分）