2022—2023学年度上学期

小学四年级数学练习题（中段）

（P2—55页）

一、填空。

1. 三百零五亿八千零六十九万三千写作：（　　），省略亿位后面的尾数约是（　　）亿。

2. 80080080007，其中左边的“8”表示（　　），右边的“7”表示（　　）。

3. 9时整，钟面上的时针和分针所成的角是（　　）度，这个角是一个（　　）角。

4. 在下面的 ◯ 里填上“＞”、“＜”或“＝”。

160×52 ◯ 16×500　　260亿 ◯ 26090000000

780×20 ◯ 40×390　　15003公顷 ◯ 150平方千米

5. □里最小能填几？

1475210＜147□190　　56□6180≈564万

□80×70＞3万　　99□275≈100万

6. 一辆汽车的速度是75千米/时，这辆汽车4小时可行驶（　　）千米。

7. 根据101×40＝4040，直接写出下面算式的得数。

101×4＝（　　）　　101×80＝（　　）

8. 右图中有（　　）条线段。

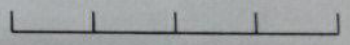

二、判断下面各题，对的在（　）里画“√”，错的画“×”。

9. 角的两边越短，角的度数就越小。……（　　）

10. 小雨画了一条比5厘米的线段长2厘米的射线。……（　　）

11. 两个因数末尾一共有几个0，积的末尾也一定有几个0。（　　）

12. 两个锐角度数的和可能比直角小。……（　　）

13. 洞庭湖在古代曾号称“八百里洞庭”，作为湖南省和湖北省的分界，其面积约为2580公顷。……（　　）

三、选择正确答案的序号填在（　　）里。

14. 下面各数中，只读一个0的是（　　）。

A. 3070008000　　B. 200055004320　　C. 1095002　　D. 4009050

15. 530×270的积是53×27的（　　）倍。

A. 10　　B. 100　　C. 1000　　D. 10000

16. 下面箭头处表示的数可能是（　　）。

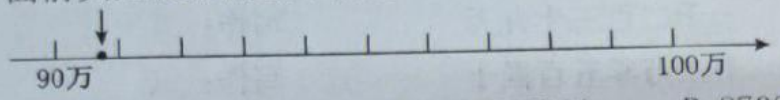

A. 900070　　B. 900700　　C. 907000　　D. 970000

17. 如图，两个长方形有一部分重叠。∠1和∠3的大小关系是（　　）。

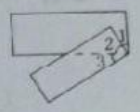

A. ∠1＞∠3　　B. ∠1＝∠3

C. ∠1＜∠3　　D. 无法判断

18. 已知M×N＝25，那么（M÷5）×（N×5）＝（　　）。

A. 1　　B. 25　　C. 125　　D. 625

四、计算。

19. 直接写得数。

22×30＝　　160×60＝　　60×120＝

720÷8＝　　480÷6＝　　320÷4＝

20. 估算。

501×19≈　　301×49≈　　279×39≈

21. 用竖式计算下面各题。

（1）104×56＝　　（2）246×38＝　　（3）308×50＝

（4）283×47＝　　（5）216×46＝　　（6）372×25＝

五、按要求完成下面各题。

22. 读出下面各数。

54273　　读作：（　　）

27609800　　读作：（　　）

40752360860　　读作：（　　）

23. 写出下面各数。

一千二百三十九万　　写作：（　　）

十二万零五百四十　　写作：（　　）

七千二百三十万零四　　写作：（　　）

24. 写一写，读一读。

（1）由6个百万、5个十万和7个百组成的数。

写作：_____　　读作：_____

（2）由四百零八、四百零八万和四百零八亿组成的数。

写作：_____　　读作：_____

25. 把下面各数改写成“万”或“亿”作单位的数，并省略“万”或“亿”位后面的尾数。

460000＝（　　）万　　4700000000＝（　　）亿

906705≈（　　）万　　1678600000≈（　　）亿

六、动手操作。

26. 按要求画一画。

（1）过点A画一条直线。

（2）画出线段AB。

（3）以C点为端点画一条射线。

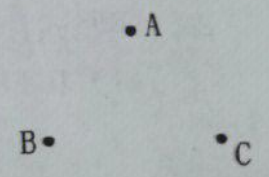

27. 量出下面各角的度数。



（　　）°

（　　）°

七、解决问题。

28. 一个长20千米，宽15千米的长方形经济开发区，面积是多少平方千米？合多少公顷？

29. 某公司每月平均用电412度，照这样计算，该公司一年共用电多少度？

30. 王叔叔从济南出发，开车行驶5小时到达徐州。前3小时的速度是60千米/时，后2小时的速度是55千米/时，王叔叔一共开车行驶多少千米？

31. 六一儿童节当天，某商场点读机开展促销活动，这一天共卖出点读机32台，如果按原价销售，可以多收入多少元？

点读机
原价：每台390元
现价：每台375元

32. 某商场有两种款式的电脑桌，买6张A款的钱，可以买多少张B款电脑桌？

A:135元

B:90元