期末冲刺卷(一)

(考试时间:60 分钟　　总分:100 分 + 10 分)

题号	一	二	三	四	五	总分	附加题
分数							

一、填空题。(每空 1 分,共 31 分)

1.

小刀长(　　)厘米

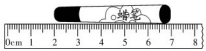

蜡笔长(　　)厘米

2. 一个数除以 6,商是 7,这个数是(　　)。

3. 在(　)里填上合适的数

8 分米 = (　　)厘米　　500 厘米 = (　　)米

20 厘米 - 2 厘米 = (　　)厘米　　3 米 7 分米 = (　　)分米

4. 补充口诀,分别写出一道乘法算式和一道除法算式。

三(　　)二十四　　(　　)三十　　三九(　　)

_____　　_____　　_____

_____　　_____　　_____

5. 有 12 个草莓,2 人分,平均每人分(　　)个,3 人分,平均每人分(　　)个,4 人分,平均每人分(　　)个;6 人分,平均每人分(　　)个。

6. 在(　)里填上合适的单位名称。

(1)一扇门宽 90 (　　)。　　(2)旗杆高 8 (　　)。

(3)大树高约 80 (　　)。　　(4)小明身高 110 (　　)。

7. 比直角小的角是(　　),比直角大的角是(　　)。

8. 56 里面有(　　)个 8,63 是 9 的(　　)倍。

9. 把 40 朵花平均插在 5 个花瓶中,每瓶插(　　)朵,列式是(　　),用到的口诀是(　　)。

二、选择题。(将正确答案的序号填在括号里)(10 分)

1. 测量教学楼的宽,用(　　)作单位较合适。

A. 米　　B. 分米　　C. 厘米

2. 下面图(　　)中的角最多。

A.

B.

C.

3. 6 + 6 + 6 + 4 可以写成(　　)。

A. 6 × 4　　B. 6 × 3 + 4　　C. 6 × 3 - 4　　D. 6 × 4 + 2

4. □有 6 个,○的个数是□的 2 倍,○有(　　)个。

A. 3　　B. 8　　C. 12

5. 二(1)班 38 名同学去科技馆参观,每辆车最多能坐 5 人,派(　　)辆车比较合适。

A. 7　　B. 8　　C. 6

三、算一算。(18 分)

1. 直接写出得数。(6 分)

32 ÷ 4 =	5 × 5 =	6 × 3 =	7 × 5 + 18 =
15 ÷ 3 =	2 × 9 =	9 × 9 =	8 × 4 - 6 =
81 ÷ 9 =	6 × 8 =	4 ÷ 2 =	8 × 4 - 15 =

2. 在(　)里最大能填几?(6 分)

(　　) × 5 < 34　　6 × (　　) < 24　　4 × (　　) < 30

8 × (　　) < 63　　9 × (　　) < 45　　(　　) × 7 < 20

3. 填一填。(6 分)

(1) 8 $\xrightarrow{\times 9}$ (　　) $\xrightarrow{-8}$ (　　) $\xrightarrow{\div 8}$ (　　) $\xrightarrow{\div 4}$ (　　)

(2) 54 $\xrightarrow{\div 9}$ (　　) $\xrightarrow{\times 4}$ (　　) $\xrightarrow{\div 3}$ (　　) $\xrightarrow{\times 5}$ (　　)

(3) 45 $\xrightarrow{\div 9}$ (　　) $\xrightarrow{\times 7}$ (　　) $\xrightarrow{\div 5}$ (　　) $\xrightarrow{\times 6}$ (　　)

四、按要求完成下面各题。(18 分)

1. 下面图形中各有几个锐角,几个直角,几个钝角?(6 分)

(1)

(　　)个锐角
(　　)个直角
(　　)个钝角

(2)

(　　)个锐角
(　　)个直角
(　　)个钝角

2. 请你用两副三角尺拼出直角,将你的拼法画在下面方框里。(2 分)

3. 左面的图分别是谁看到的?把序号填在相应的括号里。(6 分)



(　　)

(　　)

(　　)

4. 摆一摆,说一说。(4 分)

△△△△

☆　☆　☆　☆　☆　☆　☆　☆

□□□□□□□□□□□□□□□□

(1)☆的个数是△的(　　)倍。　　(2)□的个数是☆的(　　)倍。

□○□ = □　　□○□ = □

五、解决问题。(23 分)

1. 小明、小东、小军和小刚每人都有 8 本故事书。(4 分)



2. 编一个中国结需要 6 米长的彩带,已经编了 8 个,还剩 2 米,彩带原来有多长?(4 分)

3. 购物。(6 分)

72元

8元

35元

9元

(1)40 元钱能买几双袜子?

(2)买一件上衣的钱可以买几顶帽子?

(3)妈妈带 50 元钱,够买 5 顶帽子吗?

4. 在九九重阳节表彰大会上,20 位阿姨获得"尊老爱幼"道德模范称号,给她们每人献一枝花,够吗?(4 分)

5. 他俩一共买了多少个作业本?(5 分)

附加题。(10 分)

一道除法算式,除数是 9,小明把被除数十位上的数和个位上的数看颠倒了,结果除得的商是 3。正确的商是多少?