航小教育集团质量分析监测卷

一年级

姓名：_____

班级：_____

准考证号：_____

贴条码区

题　号	一	二	三	四	五	
评卷人						
得　分						

准考证号：□□□□□□□□□□　姓名：_____　班级：_____

密　封　线

请在各题目的答题区域内作答，超出黑色长方形边框限定区域的答案无效。

一、我会填。（每空 1 分，30 分）

1. 看图写数。

（　　）　（　　）　（　　）　（　　）

2.（1）根据计数器先写出得数，再比较大小。

（2）在计数器上先画出珠子，再比较大小。

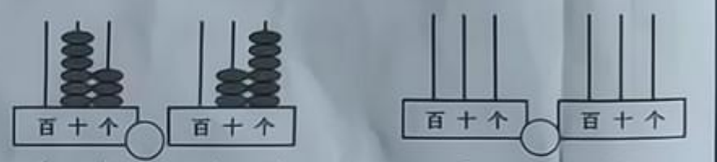

（　　）　（　　）　45　100

3. 从右边数起，第一位是（　　）位，第二位是（　　）位，百位是第（　　）位。

4. 最大的两位数是（　　），最大的一位数是（　　），这两个数的差是（　　）。

5. 73 读作（　　），五十九写作（　　）。

6. 3 个十和 9 个一合起来是（　　），与它相邻的两个数是（　　）和（　　）。

7. 50 里面有（　　）个十，10 个十是（　　）。

请在各题目的答题区域内作答，超出黑色长方形边框限定区域的答案无效。

请在各题目的答题区域内作答，超出黑色长方形边框限定区域的答案无效。

8.

三个图中共有（　　）个长方形，（　　）个正方形，（　　）个三角形，（　　）个圆，（　　）个平行四边形。

9. 给小凳子编上号码。

二、我会判。（对的画“√”，错的画“×”）（5 分）

1. 66 中的两个“6”表示的意义一样。（　　）

2. 8 个一和 7 个十组成的数是 78。（　　）

3. 38 个苹果，每 10 个装满一袋，可以装满 4 袋。（　　）

4. 用 9 个圆在数位顺序表中可以摆出 10 个不同的数。（　　）

5. 两位数一定比一位数大。（　　）

三、我会做。（27 分）

1. 直接写出得数。（12 分）

16-8=	15-9=	14-5=	11-2+60=
3+30=	45-40=	90+6=	72-70+9=
12-6=	13-7=	11-4=	10-3+20=

2. 在○里填上“＞”“＜”或“=”。（6 分）

76-50 ○ 30	8+20 ○ 29	78-30 ○ 50+8
75-5 ○ 15+10	45-5 ○ 55-10	88-80 ○ 19-10

请在各题目的答题区域内作答，超出黑色长方形边框限定区域的答案无效。

请在各题目的答题区域内作答，超出黑色长方形边框限定区域的答案无效。

3. 把下列各数按从大到小的顺序排列。（5 分）

（　　）>（　　）>（　　）>（　　）>（　　）

4. 连一连。（4 分）

鹅比鸡　　鸭比鹅　　鹅比鸭　　鸡比鹅

少得多　　多得多　　多一些　　少一些

四、我会分类。（18）

1. 分一分，填一填。（6 分）



请在各题目的答题区域内作答，超出黑色长方形边框限定区域的答案无效。

密 封 线

2.按形状分一分，涂一涂，再写出每种图形的个数。（8 分）

圆	正方形	长方形	三角形
（　个）	（　个）	（　个）	（　个）

3. 把这些图形分成两组，可以怎样分？把分组的结果填在表格里。（4 分）

五、我会列式。（4 分）

1.

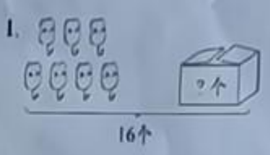

□○□=□（　　）

2.

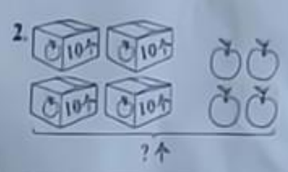

□○□=□（　　）

请在各题目的答题区域内作答，超出黑色长方形边框限定区域的答案无效。

六、我会解决问题。（16 分）（第 1 题 4 分，第 2 题 2 分。第 3 题 2 分。第 4 题 3 分，第 5 题 2 分，第 6 题 3 分。）

1. 育英小学一年级三个班植树棵树统计如下：

一 班	二 班	三 班
？棵	20 棵	？棵

（1）一班和二班一共植了 29 棵，一班植了多少棵？

（2）三班植的棵树比二班多一些，三班可能植了多少棵？在合适答案后面画“√”。

9 棵	18 棵	27 棵	60 棵

2.妈妈买 和 共花了 94 元，其中 8元，买 花了 30元。

□○□=□（　　）

请在各题目的答题区域内作答，超出黑色长方形边框限定区域的答案无效。

3.

□○□=□（　　）

4.

他们一共有几颗☆？

□○□○□=□（　　）

5.

把这些草莓都装进纸箱里，装得下吗？

6.有 26 个□，可以拼几个 ?还剩几个□ ?(动手圈一圈)

请在各题目的答题区域内作答，超出黑色长方形边框限定区域的答案无效。